2005년01월30일년 여성복기능사 필기시험 기출문제 답안

【1과목 : 20문제】 임의 구분	1	2	3	4	5	6	7	8	9	10
	④	③	④	③	①	①	①	①	②	③
	11	12	13	14	15	16	17	18	19	20
	④	④	④	③	②	④	④	④	③	①

【2과목 : 20문제】 임의 구분	21	22	23	24	25	26	27	28	29	30
	③	①	③	③	③	①	②	②	①	④
	31	32	33	34	35	36	37	38	39	40
	③	③	③	①	③	③	④	③	①	①

【3과목 : 20문제】 임의 구분	41	42	43	44	45	46	47	48	49	50
	④	①	①	②	④	④	②	④	②	④
	51	52	53	54	55	56	57	58	59	60
	②	③	③	①	②	③	③	①	②	③

전자문제집 CBT 홈페이지 : https://www.cbtestpro.kr

최신 수정 자료와 해설(오타・오답・규정변경)은 cbtestpro.kr 웹 및 앱에서 확인하세요.

기출문제의 저작권은 출제기관에 있습니다. cbtestpro.kr 및 관련 앱에서는 편집 및 재구성 작업만 하였음을 밝힙니다.

CBT기출문제

전자문제집 CBT

빠르고 효과적으로 배워 시험 합격을 노려라!

Download on the App Store

GET IT ON Google Play

【1과목】 임의 구분 (20문제)

1. 바늘 땀이 뛰는 이유와 가장 거리가 먼 것은?
   - ① 바늘판에 결함
   - ② 북집 자체에 결함
   - ③ 실의 불량
   - ④ 톱니에 결함

2. 재봉틀의 부품 중 천을 앞으로 밀어주는 역할을 하는 것은?
   - ① 아암
   - ② 실채기
   - ③ 피이드 독
   - ④ 프레셔 푸드

3. 패턴의 배치방법 중 옳지 못한 것은?
   - ① 패턴은 큰 것부터 배치한다.
   - ② 옷본에 표시된 올의 방향에 맞춘다.
   - ③ 무늬가 있는 옷감은 무늬를 맞춘다.
   - ④ 긴 털이 있는 옷감은 털의 결방향을 위로 한다.

4.

   아래 디자인에서 1번 포켓의 이름은?
   - ① 플랩 포켓
   - ② 바운드 포켓
   - ③ 웰트 포켓
   - ④ 인씸 포켓

5. 의류 패턴 표시기호에서 가는 실선으로 나타내지 아니하는 것은?
   - ① 안단선
   - ② 중심선
   - ③ 되접는 선
   - ④ 안내선

6. 그림과 같은 페탈(petal) 소매를 제도한 것으로 맞는 것은?

   - ① (1)번
   - ② (2)번
   - ③ (3)번
   - ④ (4)번

7. 제도시 약자로 틀린 것은?
   - ① 허리둘레선 - W.P.
   - ② 엉덩이 둘레선 - H.L.
   - ③ 중심선 - C.L.
   - ④ 소매산 - S.C.

8. 한가닥 또는 그 이상의 봉사들이 한가닥 또는 그 이상의 보빈 봉사들과 독립적이거나 서로 결합하여 일정한 간격을 유지하면서 이루어진 환(環, 땀)의 구조는?
   - ① 스티치(stitch)
   - ② 시임(seam)
   - ③ 연단(spreading)
   - ④ 마킹(marking)

9. 2장의 겹쳐진 천은 서로 포개어 겹쳐 있고, 이 때의 겹쳐진 양은 땀을 유지시키거나 봉합하는데 충분한 양이 되도록 봉합시킨 시임(seam,솔기)은?
   - ① 수퍼포오즈 시임
   - ② 랩 시임
   - ③ 바운드 시임
   - ④ 플랫 시임

10. 공업용 재봉틀 사용하기에서 그 설명이 틀린 것은?
   - ① 밑실감기에서 북을 실감는 축에 끼어 고정시킨다.
   - ② 밑실감기에서 북에 실을 시계방향으로 몇 번 감아 준후 북 누름대를 눌러 고정시킨다.
   - ③ 밑실감기에서 실 가이드의 구멍을 앞에서 뒤로 통과 시킨 후 실을 위실 장력조절 나사의 원반사이로 통과 시킨다.
   - ④ 밑실끼우기에서 실을 북집의 밑실 장력조절 나사가 있는 틈 사이로 끼워 홈에 잘 놓이게 한다.

11. 테일러 칼라의 슈우트를 가봉후에 재단해도 되는 것은?

① 소매

② 뒷길

③ 앞길

④ 안단

12. 다음 중 퍼프슬리브는 어느 것인가?

①

②

③

④

13. 다양한 디자인의 활용을 위한 기본 원형에 들지 않는 것은?

① 길(bodice)

② 소매(sleeve)

③ 스커트(skirt)

④ 다트(dart)

14. 어깨너비의 치수를 재는 올바른 방법은?

① 좌우 어깨점과 가슴너비 점을 지나는 라인의 직선거리를 잰다.

② 좌우 어깨점과 목앞점을 지나는 라인을 따라 체표면을 잰다.

③ 좌우 어깨점 사이의 체표면에 대어 너비를 잰다.

④ 좌우 옆목점을 지나며 좌우 어깨점의 너비를 잰다.

15. 110㎝ 너비의 옷감으로 긴 소매 블라우스를 만들 때 필요한 옷감의 소요량은?

① (블라우스길이×1.5)+시접(5~7㎝)

② (블라우스길이×2)+시접(10~15㎝)

③ (블라우스길이×2)+소매길이+시접(10~20㎝)

④ 블라우스길이+소매길이+시접(10~15㎝)

16. 시착한 후 관찰방법으로 옳지 않는 것은?

① 옷전체의 여유분이 적당한가를 관찰한다.

② 옷전체의 길이는 적당한가를 관찰한다.

③ 절개선 위치는 적당한가를 관찰한다.

④ 색상이 얼굴에 맞는가를 관찰한다.

17. 다음 중 원형의 제도법에 대한 설명 중 옳은 것은?

① 장촌식 제도법은 신체 각 부위의 치수를 섬세하게 계측하여 그 치수를 원형으로 표현한다.

② 장촌식 제도법은 각자가 치수를 정확하게 계측하여야만 몸에 잘 맞는 원형이 구성된다.

③ 단촌식 제도법은 기준이 되는 큰 치수 몇 항목만을 사용하여 그 치수를 등분하거나 고정치수를 사용한다.

④ 장촌식 제도법은 계측이 서투른 초보자에게도 적당한 방법이라고 볼 수 있다.

18. 다음 중 제조원가에 대한 설명으로 맞는 것은?

① 재료비 : 원자재와 부자재로 나누어진다. 원자재는 안감, 심지, 지퍼, 단추, 봉사 등을 말하고 부자재는 겉감을 말한다.

② 인건비 : 직접인건비와 간접인건비로 나누어진다. 간접인건비는 재료구입, 운반작업, 준비작업에 쓰이는 간접비용만을 말한다.

③ 제조원가 : 제조경비는 기업 규모에 상관 없이 일정하다고 볼 수 있다.

④ 재료비와 인건비는 직접원가이며 또 제조원가의 기초가 되므로 직접원가를 먼저 산출하고 여기에 제조경비를 합하여 제조원가를 결정한다.

19. 생산원가 계산에 대한 설명으로 옳지 않은 것은?

① 원단비용은 옷 가격을 계산할 때 가장 중요한 요인이라 할 수 있다.

② 인건비는 옷을 만드는데 필요한 연단, 재단, 봉제, 프레싱, 습식 공정등에 드는 비용을 포함한다.

③ 간접비란 옷을 생산하는데 드는 직접 비용과 사업체를 운영하는데 드는 모든 비용을 말한다.

④ 부속품 비용은 옷을 생산하는데 필요한 원단 이외의 것을 말한다.

20. 보기의 다림질 방법(기호) 표시를 바르게 설명한 것은?

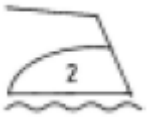

① 헝겊을 덮고 온도 140~160°C정도에서 다림질 한다.

② 일반적으로 온도 160~180°C정도에서 다림질 한다.

③ 온도 90 - 120°C정도에서 다림질 한다.

④ 헝겊을 덮고 온도 120 - 140°C정도에서 다림질 한다.

【2과목】 임의 구분 (20문제)

21. 길원형에서 A의 명칭은 무엇인가?

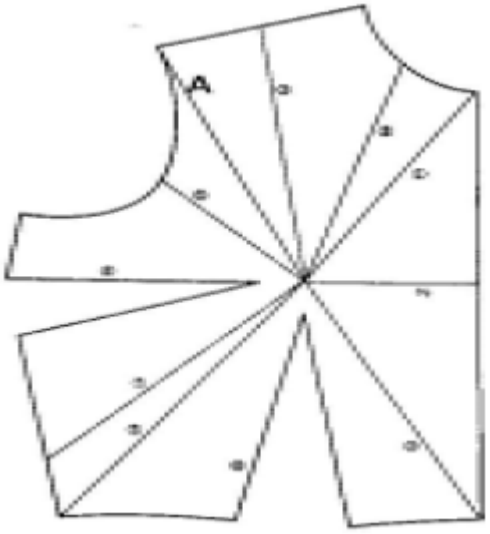

① 숄더다트 (shoulder dart)

② 네크다트 (neck dart)

③ 숄더포인트다트 (shoulder point dart)

④ 센터프론트다트 (center front dart)

22. 열가소성의 성질이 있으며 여성용 고급 블라우스나 안감으로 가장 많이 사용하는 섬유는?

① 반합성섬유

② 합성섬유

③ 재생섬유

④ 천연섬유

23. 스커트 길이에 따른 명칭으로 길이가 무릎정도 되는 스커트로 기본형 스커트의 길이에 해당되는 스커트는?

① 미디 스커트

② 맥시 스커트

③ 내츄럴 라인 스커트

④ 풀 렝스 스커트

24. 목옆점에서 유두점까지의 길이를 재는 측정항목은?

① 앞길이

② 유두간격

③ 유두길이(유장)

④ 옆길이

25. 소매길이를 가장 올바르게 재는 방법은?

① 어깨끝점에서 손바닥까지 잰다.

② 팔을 구부린 후 어깨끝점에서 손목점까지 잰다.

③ 어깨끝점에서 팔꿈치점을 지나 손목점까지 잰다.

④ 옆목점에서 팔꿈치점을 지나 손목점까지 잰다.

26. 바지의 허벅지 부위가 너무 타이트할 경우에 올바른 보정 방법은?

① 옆선에서 부족한 만큼 내준다.

② 안쪽 가랑이를 남는 만큼 줄여준다.

③ 허리선을 올리고 밑아래를 넓힌다.

④ 밑아래 시접을 줄여준다.

27. 다음 그림의 장식봉 이름은?

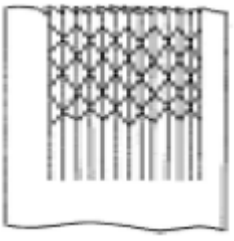

① 러플

② 스모킹

③ 패거팅

④ 핀턱

28. 다음중에서 운동복 솔기로 가장 적당한 것은?

① 박음질

② 쌈솔

③ 가름솔

④ 접어가름솔

29. 다음의 바느질법중에서 새발뜨기의 설명은?

① 두꺼운 옷감의 단부분이나 뒤 트임 부분에 많이 사용되는 바느질이고, 쉽게 뜯어지는 것을 방지하는 튼튼한 바느질법이며 장식적인 효과도 있다.

② 스커트, 슬랙스, 소매 등의 밑단부분에 많이 쓰이는 바느질이고 단을 접어서 다린 후에 겉감으로는 바늘땀이 거의 나타나지 않게 하여야 하고 접힌 단 쪽으로 길게 떠준다.

③ 밑단 부분이나 안감을 겉감에 고정시킬 때, 지퍼부분에서 안감을 겉감부분에 고정시킬 때 많이 사용하고 옷의 안쪽 부분에 사선의 감치기 한 실이 나타나고 겉쪽으로는 실땀이 보이지 않도록 한다.

④ 올이 풀리지 않도록 시접의 끝을 꺽어 다린 후 단 분량을 접어 재봉틀로 박아주며 면이나 청바지단 처리에 쓰인다.

30. 다음 중 옷본에 표시할 사항이 아닌 것은?

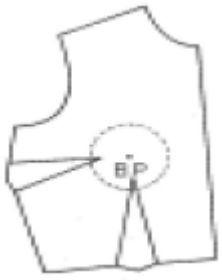

① 앞 중심 (C.F)

② 식서방향

③ 노치 (notch)

④ 사용기간

31. 아디프산(adipic acid)과 헥사메틸렌디아민의 축합중합에 의해서 이루어지는 나일론은?

① 나일론 6

② 나일론 9

③ 나일론 66

④ 나일론 610

32. 폴리프로필렌계 섬유의 특성 중 틀린 것은?

① 비중이 가볍다.

② 내열성이 나쁘다.

③ 흡습성이 좋다.

④ 강력 및 탄성이 크다.

33. 드라이클리닝의 장점에 대해서 바르게 말한 것은?

① 세제의 값이 싸고, 설비비가 적게 든다.

② 친수성 오염의 세탁에 효과적이다.

③ 의류의 색, 형태가 보존되며, 세탁 후 손질이 간편하다.

④ 세탁 방법이 간단하고, 오염물이 깨끗이 제거된다.

34. 섬유를 불에 태웠을 때 식초냄새가 나는 것은?

① 아세테이트

② 아크릴

③ 나일론

④ 비닐론

35. 직물에서 경사(날실) 방향이라고 추측할 수 있는 쪽은?

① 강도는 약하지만 신축성이 큰 쪽

② 실의 밀도가 적은 쪽

③ 세탁시 수축이 많이 되는 쪽

④ 제직시 장력을 적게 받은 쪽

36. 다음 중 흡습성이 가장 좋은 섬유는?

① 폴리에스테르

② 아크릴

③ 아마

④ 나일론

37. 다음중에서 비중이 가장 적은 섬유는?

① 목화

② 생명주

③ 폴리에스테르

④ 나일론

38. 비누의 특성을 설명한 것 중 틀린 것은?

① 가수분해되어 유리지방산을 만든다.

② 알칼리성 용액에서 사용할 수 있다.

③ 경수(센물)에 안정하다.

④ 원료의 공급에 제한을 받는다.

39. 다음 그림은 현미경으로 본 섬유의 단면과 측면이다. 섬유명은?

① 아마
② 양모
③ 레이온
④ 나일론

40. 현미경으로 섬유의 측면을 관찰할 때 납작한 리본모양의 천연 꼬임이 보이는 것은?

① 무명
② 양털
③ 아마
④ 명주

【3과목】 임의 구분 (20문제)

41. 다음 중 가장 따뜻한 색은?

① 보라색
② 노랑색
③ 연두색
④ 주황색

42. 어떤 색으로 테이블보를 만드는 것이 식욕을 돋구어 주는 역할을 하는가?

① 주황색
② 남색
③ 흰색
④ 연두색

43. 색채조절에 의한 효과가 아닌 것은?

① 눈의 피로와 긴장감을 준다.
② 사고나 재해를 감소시킨다.
③ 능률이 향상되어 생산력이 높아진다.
④ 유지관리가 경제적이며 쉽게 된다.

44. 부티크(Boutique)란?

① 여성의류만 취급하는 점포
② 개성적인 의류와 소품을 취급하는 점포
③ 남성복만 취급하는 점포
④ 캐쥬얼만 취급하는 점포

Download on the App Store 전자문제집 CBT(App Store) :[다운로드]
GET IT ON Google Play 전자문제집 CBT(Google Play) :[다운로드]

45. 혼색에 대한 설명으로 틀린 내용은?

① 색광혼합을 가법혼색이라 한다.
② 색료혼합을 감산혼합이라 한다.
③ 색료혼합 3원색을 다 합치면 흑색이 된다.
④ 색광을 혼합하면 할수록 명도와 채도가 낮아진다.

46. 동시대비에 속하지 않는 것은?

① 명도대비
② 색상대비
③ 보색대비
④ 계속대비

47. 옷이 젖었을때가 말랐을때보다 훨씬 무거워 보이는 이유는 다음 중 어느 것에 의한 영향인가?

① 채도
② 명도
③ 색상
④ 대비

48. 형태에 있어서 순수형태의 기본 분류가 아닌 것은?

① 점
② 선
③ 면
④ 형

49. 다음 중 색을 배색할 때 주의점이 아닌 것은?

① 사용하는 목적과 주위환경을 고려한다.
② 색의 배치나 면적, 비례는 중요하지 않다.
③ 색상, 명도, 채도의 변화를 고려하여 조화가 되도록 한다.
④ 사용되는 재질과 형체를 고려하여 배색을 미리 계획한다.

50. 고대로부터 내려온 가장 아름다운 비례의 미적분할방법에 근접한 것은?

① 3 : 8

② 1 : 2

③ 1 : 1

④ 3 : 5

51. 다음 중 직물의 조직과 직물명을 바르게 연결한 것은?

① 평직- 공단

② 능직- 사지

③ 수자직 - 포플린

④ 양면사문직 - 옥양목

52. 부직포의 특성 중 적당하지 아니한 것은?

① 보온성이 좋다.

② 탄성이 우수하다.

③ 표면이 매끄럽다.

④ 레질리언스가 우수하다.

53. 검사 결과 날실(경사)로 판정할 수 있는 것은?

① 견본 직물에 가장자리 부분이 있을 때, 가장자리 실(변사)과 수직을 이루고 있는 실이다.

② 일반적으로 실의 밀도가 적은 쪽의 실이다.

③ 견본을 살펴보아, 일반적으로 바르게 배열되어 있는 실이다.

④ 외올실(단사)과 여러 올의 합사 직물일 때에는 외올실이다.

54. 의복의 착용과정에 있어서 직물의 성능을 저하시키는 요인이 아닌 것은?

① 직물의 가격

② 자외선

③ 염료의 황변

④ 땀 또는 피지

55. 의복을 착용 중 발생하는 정전기를 방지하기 위한 가공법은?

① 의마가공

② 대전방지가공

③ 방화가공

④ 방축가공

56. 직물의 삼원조직이 아닌 것은?

① 평직

② 능직

③ 문직

④ 수자직

57. 다음 양털섬유의 불순물 중 관계 없는 것은?

① 울 그리스(wool grease)

② 지방산

③ 리그닌

④ 스윈트(suint)

58. 형태안정성, 충해, 피복지의 성능 요구도는 피복지로써 구비하여야 할 성능 중 어느 것에 속하는가?

① 관리적인 성능

② 감각적인 성능

③ 실용적인 성능

④ 위생상의 성능

59. 옷감의 보온성과 가장 관계가 깊은 것은?

① 강도

② 함기율

③ 투습성

④ 내추성

60. 여러 세탁 방법들에서 세척율을 바르게 나타낸 것은?

① 비벼빨기 > 두드려빨기 > 주물러빨기 > 흔들어빨기

② 비벼빨기 > 두드려빨기 > 흔들어빨기 > 주물러빨기

③ 두드려빨기 > 비벼빨기 > 주물러빨기 > 흔들어빨기

④ 두드려빨기 > 비벼빨기 > 흔들어빨기 > 주물러빨기