2015년03월08일년 ERP 인사 2급 실무 필기시험 기출문제 답안

【1과목 : 4문제】 인사 기본정보관리	1	2	3	4
	②	①	④	③

【2과목 : 8문제】 근태/급여관리	5	6	7	8	9	10	11	12
	②	①	②	①	④	④	③	④

【3과목 : 8문제】 인사 시뮬레이션	13	14	15	16	17	18	19	20
	③	②	①	②	④	③	④	③

전자문제집 CBT 홈페이지 : https://www.cbtestpro.kr

최신 수정 자료와 해설(오타・오답・규정변경)은 cbtestpro.kr 웹 및 앱에서 확인하세요.

기출문제의 저작권은 출제기관에 있습니다. cbtestpro.kr 및 관련 앱에서는 편집 및 재구성 작업만 하였음을 밝힙니다.

CBT기출문제

전자문제집 CBT

빠르고 효과적으로 배워 시험 합격을 노려라!

Download on the App Store

GET IT ON Google Play

【1과목】인사 기본정보관리 (4문제)

1. 핵심ERP 프로그램의 [인사기록카드] 메뉴에서 입력 또는 조회할 수 없는 항목은 다음 중 무엇인가?

① 학력Tab

② 대출Tab

③ 인사고과Tab

④ 인사발령Tab

2. 핵심ERP 프로그램에서의 인사발령 프로세스에 대한 다음 설명 중 가장 적합하지 않은 것은 무엇인가?

① 인사발령등록 메뉴에서 대상자로 등록되지 않은 사원에 대해서는 인사발령을 적용할 수 없다.

② 인사발령내역 등록시 동일일자라 하더라도 발령구분에 따라 개별적으로 내역을 등록하여야 한다.

③ 등록된 인사발령 내역에 대해 인사발령(사원별) 메뉴에서 각 사원에 대한 상세발령내역을 입력한다.

④ 인사발령(사원별) 메뉴에서 등록된 발령내역을 '발령적용'하는 경우, 자동으로 인사정보등록 메뉴에 반영된다.

3. 핵심ERP 프로그램 메뉴 중 원천징수 및 연말정산과 관련된 세법상 과세기준 및 세율 등이 설정되어 있는 것으로 가장 적합한 것은 무엇인가?

① 사원정보현황 메뉴

② 사회보험환경등록 메뉴

③ 인사기초코드등록 메뉴

④ 소득/세액공제환경설정 메뉴

4. 다음은 인사기록카드 메뉴의 일부화면이다. 다음 [보기]와 화면을 참고로 한 다음 설명 중 가장 적합한 것은 무엇인가?

[보기]
가족수당 급액
- 배우자 : 50,000원
- 자녀 : 30,000원/인(인원수 제한없음)
- 근로자의 직계존속 : 50,000원/인

① 가족수당에는 본인도 포함된다.

② 가족수당 지급대상자 수는 8명이다.

③ 가족수당의 총합계는 240,000원이다.

④ 수당을 지급받을 가족명단은 본 메뉴에서 추가등록이 불가능하다.

【2과목】근태/급여관리 (8문제)

5. 다음 인사/급여환경설정 메뉴 화면에 대한 설명 중 가장 적합하지 않은 것은 무엇인가?

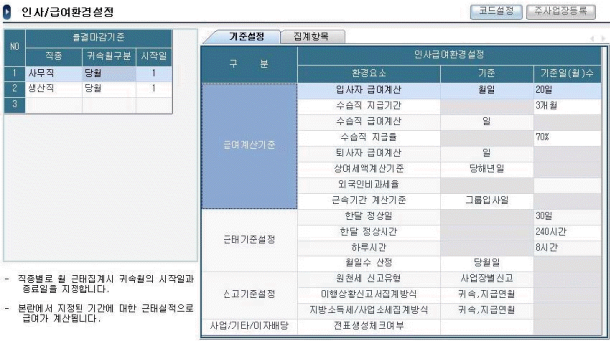

① 당사의 사무직과 생산직 사원 모두 기산일은 매월 1일이다.

② 1월 15일에 퇴직하는 경우 월 급여를 정상지급 받을 수 있다.

③ 신입사원의 경우 3개월의 수습기간동안 월급여의 70%가 지급된다.

④ 1월 15일에 당사 사무직으로 입사한 상용직 직원(경력직)의 경우, 월 급여를 정상지급 받을 수 없다.

6. 다음 급/상여이체현황 메뉴 화면에 대한 설명 중 가장 적합하지 않은 것은 무엇인가?

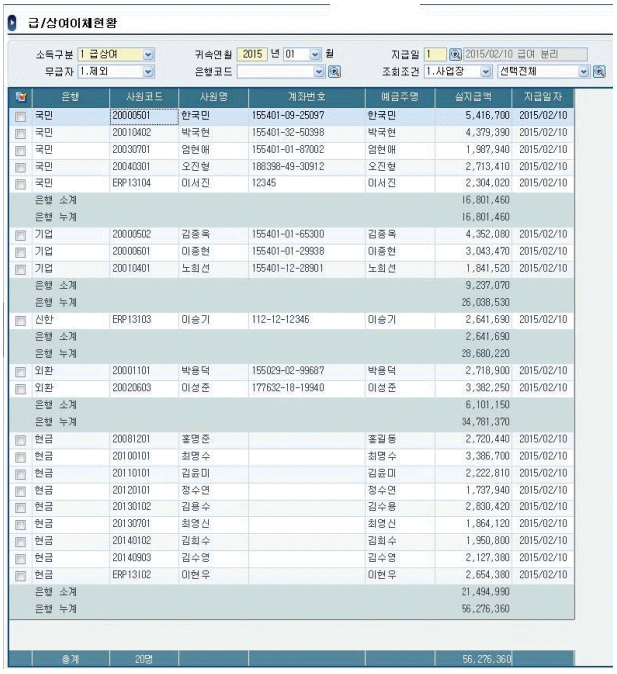

① 기업은행 계좌로 지급된 급여는 총 26,038,530원이다.

② 조회된 사원 중 5명이 국민은행 계좌로 급여를 지급받았다.

③ 화면에 조회된 사원 20명에 대한 급여는 2015년 1월 귀속분이다.

④ 화면에 조회된 사원 20명에 대한 전체 급여 실지급액은 56,276,360원이다.

7. 다음 사원별급/상여변동현황 메뉴 화면에 대한 설명 중 가장 적합하지 않은 것은 무엇인가?

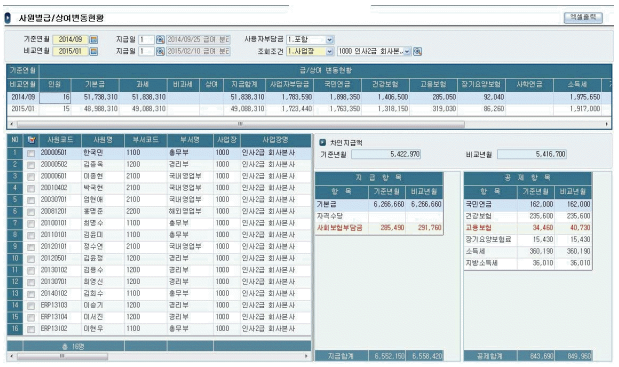

① 인사2급 회사본사 사업장에 대한 급상여정보 비교현황이다.

② 기준연월에 비해 기본급 및 소득세 합계액 모두 증가되었다.

③ 기준연월에 비해 인사2급 회사본사 사업장의 사원수가 1명 감소되었다.

④ 한국민 사원에 대한 사회보험부담금이 증가된 원인은 고용보험료 증가에 따른 것이다.

8. 다음 급여대장 메뉴 화면에 대한 설명 중 가장 적합하지 않은 것은 무엇인가?

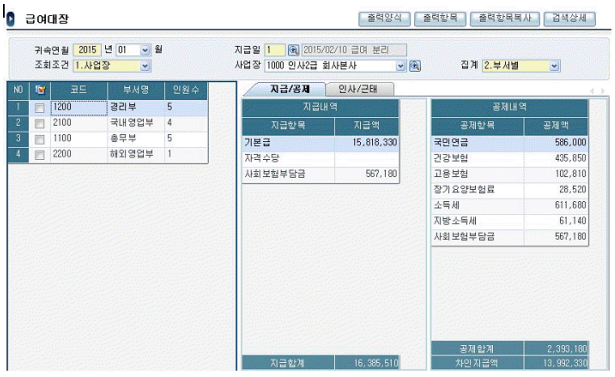

① 경리부 소속사원 5명에 대한 실지급액 합계는 16,385,510원이다.

② 본 화면은 인사2급 회사본사 사업장의 2015년 1월 귀속, 부서별 급여대장이다.

③ 지급일은 급/상여지급일자등록 메뉴에서 등록된 지급일자를 기준으로 조회된다.

④ 경리부 소속직원에 대해 회사에서 부담해야 하는 사회보험부담금은 567,180원이다.

9. 다음 상용직급여입력및계산 메뉴 화면에 대한 설명 중 가장 적합하지 않은 것은 무엇인가?

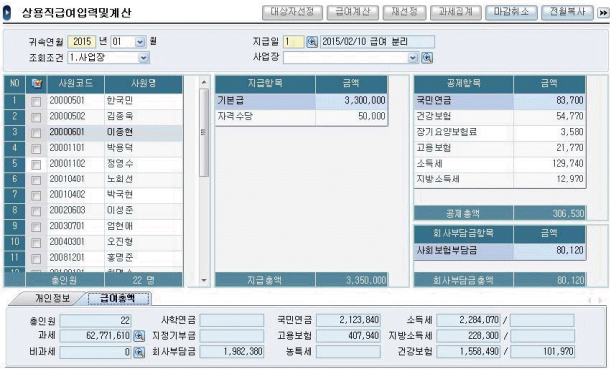

① 이종현 사원은 자격수당을 받는다.

② 당사 22명의 사원에 대한 회사부담금 총액은 1,982,380원이다.

③ 이종현 사원에 대해 83,700원의 국민연금보험료를 공제하였다.

④ 이종현 사원이 받은 2015년 1월 귀속 실급여액은 3,350,000원이다.

10. 다음은 일용직 김민수 사원에게 2015년 5월 귀속의 급여를 다음 지급조건에 의하여 지급하고 있다. 다음 조건을 참고로 하여 계산한 김민수 사원의 급여총액(세전금액)과 소득세는 각각 얼마인가? (단, 소액부징수 규정을 지킴)

[보기]
근무일수 : 15일
일당 : 110,000원
지급형태 : 일정기간지급

① 급여액 : 1,500,000원, 소득세 : 0원

② 급여액 : 1,500,000원, 소득세 : 4,050원

③ 급여액 : 1,650,000원, 소득세 : 0원

④ 급여액 : 1,650,000원, 소득세 : 4,050원

11. 다음 근태결과입력 메뉴 화면과 다음 [보기]의 급여계산식을 참고하여 계산한 정영수 사원의 2015년 1월 귀속 총급여액은 얼마인가?

① 2,140,000원

② 2,400,000원

③ 2,500,000원

④ 2,600,000원

12. 다음 일용직급여입력및계산 메뉴 화면에 대한 설명 중 가장 적합하지 않은 것은 무엇인가?

① 김연호 사원의 한 달 총 근무시간은 176시간이다.

② 2015년 1월 귀속에 대한 급여지급일은 1월 31일이다.

③ 김연호 사원은 일정기간지급 방법으로 급여가 지급된다.

④ 김연호 사원의 2015년 1월 급여 실지급액은 4,043,340 원이다.

【3과목】인사 시뮬레이션 (8문제)

13. 2015 년 3 월 '엄현애' 사원의 책정임금을 새로 계약하였다. [보기]와 같이 책정임금을 새로 등록하여 2015 년 3 월 귀속 <급여계산> 시 '차인지급액'은 얼마인가? * 본 문제는 시뮬레이션 문제로서 [실기메뉴]의 메뉴를 활용하여 문제에 답하시오.

[보기]
계약시작년월 : 2015 년 3 월
연봉 : 28,500,000 원

① 1,995,870 원

② 2,133,330 원

③ 2,227,490 원

④ 2,375,000 원

14. 당 회사는 일용직 사원에 대해 평일 8 시간을 근무한다고 가정하고 있다. 2015 년 3 월 귀속 지급 대상자의 총 소득세 와 지방소득세는 얼마인가? 단, 그 외 급여계산에 필요한 조건은 프로그램에 등록된 기준을 이용한다. * 본 문제는 시뮬레이션 문제로서 [실기메뉴]의 메뉴를 활용하여 문제에 답하시오.

① 소득세 21,500 원 / 지방소득세 2,160 원

② 소득세 29,700 원 / 지방소득세 2,860 원

③ 소득세 34,200 원 / 지방소득세 3,250 원

④ 소득세 37,400 원 / 지방소득세 3,670 원

15. 당 회사는 2015 년부터 전 사업장에 대해 아래 [보기]의 기준에 따라 자격수당을 지급하기로 하였다. 자격수당의 총 지급액은 얼마인가? * 본 문제는 시뮬레이션 문제로서 [실기메뉴]의 메뉴를 활용하여 문제에 답하시오.

[보기]
지급대상 자격/면허 : ERP 정보관리사 2 급
수당여부 : 해당
1 인당 지급액 : 20,000 원

① 80,000 원

② 100,000 원

③ 120,000 원

④ 140,000 원

16. 2015 년 3 월 귀속 근태내역을 확인 후 아래 [보기]의 계산식을 이용하여 계산한 '이종현' 사원의 연장근로수당은 얼마인가? 단, 원단위 미만 금액은 정상 표기한다. * 본 문제는 시뮬레이션 문제로서 [실기메뉴]의 메뉴를 활용하여 문제에 답하시오.

[보기]
시급 : 8,500 원
연장근로수당 = 시급 x 총연장근무시간 x 1.5

① 153,000 원
② 255,000 원
③ 280,500 원
④ 372,850 원

17. 회사는 창립 20 주년을 맞아 2015 년 3 월 28 일 기준으로 모든 사업장에 대해 만 10 년 이상 장기근속자에 대해 특별근속수당을 지급하기로 하였다. 지급된 총 특별수당은 얼마인가? 단, 퇴사자는 제외하며, 미만일수는 버리고, 근속기간이 '여'인 경력만 포함한다. * 본 문제는 시뮬레이션 문제로서 [실기메뉴]의 메뉴를 활용하여 문제에 답하시오.

[보기]
10 년 이상 근속 : 인당 100,000 원
15 년 이상 근속 : 인당 150,000 원
20 년 이상 근속 : 인당 200,000 원

① 0 원
② 300,000 원
③ 500,000 원
④ 700,000 원

18. 당 회사는 '2015년 정기승진' 발령구분으로 발령을 적용하려고 한다. 부서가 '총무부'에 해당하는 발령 대상자는 누구인가? * 본 문제는 시뮬레이션 문제로서 [실기메뉴]의 메뉴를 활용하여 문제에 답하시오.

① 노희선
② 박국현
③ 김윤미
④ 이성준

Download on the App Store 전자문제집 CBT(App Store) :[다운로드]
GET IT ON Google Play 전자문제집 CBT(Google Play) :[다운로드]

19. 당 회사의 <인사 2 회사본사> '이호재' 사원의 급/상여 지급액 등 변동사항을 확인하고자 한다. 2015 년 3 월 변동 상태에 대해 틀린 것은 다음 중 무엇인가? 단, 모든 기준은 조회된 데이터를 기준으로 확인한다. * 본 문제는 시뮬레이션 문제로서 [실기메뉴]의 메뉴를 활용하여 문제에 답하시오.

[보기]
기준년월 : 2014 년 3 월
비교연월 : 2015 년 3 월
사용자부담금 '포함'

① 근속수당 증가
② 차인 지급액 증가
③ 기본금 변동 없음
④ 사회보험부담금 감소

20. '정영수'사원의 인사정보에 대한 설명으로 틀린 것은 무엇인가? * 본 문제는 시뮬레이션 문제로서 [실기메뉴]의 메뉴를 활용하여 문제에 답하시오.

① 직종이 생산직이다.
② 국외소득은 비해당이다.
③ 배우자공제를 적용 받는다.
④ 입사일자와 그룹입사일이 동일하다.