# 2005년03월06일년 컴퓨터응용가공산업기사 필기시험 기출문제 답안

| 【1과목 : 20문제】 기계가공법 및 안전관리 | 1 | 2 | 3 | 4 | 5 | 6 | 7 | 8 | 9 | 10 |
|---|---|---|---|---|---|---|---|---|---|---|
| | ① | ④ | ③ | ② | ② | ① | ④ | ④ | ① | ③ |
| | 11 | 12 | 13 | 14 | 15 | 16 | 17 | 18 | 19 | 20 |
| | ① | ② | ① | ① | ① | ② | ④ | ① | ② | ③ |

| 【2과목 : 20문제】 기계설계 및 기계재료 | 21 | 22 | 23 | 24 | 25 | 26 | 27 | 28 | 29 | 30 |
|---|---|---|---|---|---|---|---|---|---|---|
| | ② | ④ | ① | ① | ③ | ④ | ① | ② | ② | ③ |
| | 31 | 32 | 33 | 34 | 35 | 36 | 37 | 38 | 39 | 40 |
| | ① | ② | ① | ① | ③ | ① | ② | ① | ③ | ③ |

| 【3과목 : 20문제】 컴퓨터응용가공 | 41 | 42 | 43 | 44 | 45 | 46 | 47 | 48 | 49 | 50 |
|---|---|---|---|---|---|---|---|---|---|---|
| | ② | ③ | ③ | ③ | ③ | ① | ② | ④ | ② | ① |
| | 51 | 52 | 53 | 54 | 55 | 56 | 57 | 58 | 59 | 60 |
| | ④ | ② | ④ | ① | ① | ③ | ③ | ③ | ④ | ③ |

| 【4과목 : 20문제】 기계제도 및 CNC공작법 | 61 | 62 | 63 | 64 | 65 | 66 | 67 | 68 | 69 | 70 |
|---|---|---|---|---|---|---|---|---|---|---|
| | ③ | ③ | ① | ② | ① | ③ | ③ | ② | ② | ③ |
| | 71 | 72 | 73 | 74 | 75 | 76 | 77 | 78 | 79 | 80 |
| | ② | ③ | ② | ① | ③ | ④ | ③ | ④ | ③ | ② |

전자문제집 CBT 홈페이지 : https://www.cbtestpro.kr

최신 수정 자료와 해설(오타・오답・규정변경)은 cbtestpro.kr 웹 및 앱에서 확인하세요.

기출문제의 저작권은 출제기관에 있습니다. cbtestpro.kr 및 관련 앱에서는 편집 및 재구성 작업만 하였음을 밝힙니다.

CBT기출문제

전자문제집 CBT

빠르고 효과적으로 배워 시험 합격을 노려라!

Download on the App Store

GET IT ON Google Play

## 【1과목】 기계가공법 및 안전관리 (20문제)

1. 절삭공구재료로 사용하는 스텔라이트의 주성분은?

❶ W - C - Co - Cr - Fe
② W - C - Cu - Fe
③ Co - Mo - C - Fe
④ Co - C - W - Cu - Fe

2. 버니어 캘리퍼스의 버니어 눈금 방법에서 어미자 19㎜를 20등분할 때 최소 읽기의 값은?

① 0.02 ㎜
② 0.03 ㎜
③ 0.04 ㎜
❹ 0.05 ㎜

3. 강철을 NaCN과 KCN을 주성분으로 하여 표면경화하는 방법은?

① 질화법
② 피막법
❸ 청화법
④ 화염경화법

4. 지름 50㎜인 연강 둥근 봉을 20m/min의 절삭 속도로 선삭할 때, 스핀들의 회전수는?

① 100.1 rpm
❷ 127.3 rpm
③ 440.2 rpm
④ 500.5 rpm

5. 드릴링의 조건으로 절삭속도 30m/min, 드릴지름 20mm, 이송 0.1mm/rev, 드릴끝 원추의 높이 5.8mm이라 하고 깊이 90mm의 구멍을 절삭하는 데 소요되는 시간은?

① 1.5 min
❷ 2.0 min
③ 3.0 min
④ 3.5 min

6. 연삭숫돌에 다음과 같은 기호가 표기되어 있다. 연삭숫돌 입자의 재질은? " 38WA46M 5VN,650 ×50×50 "

❶ 백색알루미나
② 녹색탄화규소
③ 흑자색탄화규소
④ 다이어몬드

7. 프레스 작업에서 스프링 백(spring back)의 설명으로서 틀린 것은?

① 탄성 한도 및 강도가 클수록 스프링 백의 양은 커진다.
② 다이의 어깨나비가 작을수록 스프링 백의 양이 커진다.
③ 동일 두께의 판에서 굽힘 각도가 예리할수록 스프링 백의 양은 커진다.
❹ 동일 재료인 경우, 굽힘 반경이 작을 수록 스프링 백의 양은 커진다.

8. 길이 측정기가 아닌 것은?

① 하이트게이지
② 마이크로미터
③ 버니어캘리퍼스
❹ 컴비네이션 스퀘어

9. 도가니로의 규격 표시법은 무엇인가?

❶ 1회에 용해할 수 있는 구리의 중량으로 표시
② 1시간에 용해할 수 있는 최대량으로 표시
③ 1일에 용해할 수 있는 최대량으로 표시
④ 1KW로 용해할 수 있는 알루미늄의 중량으로 표시

10. 형단조(型鍛造)에서 플래쉬(flash)의 주된 역할로 맞는 것은?

① 단형을 보호한다.
② 단형 내부의 재료를 부족하게 한다.
❸ 단형에서 남은 재료가 밀려 나가게 한다.
④ 단형 내부의 압력을 낮춘다.

11. 단조용 드롭 해머(drop hammer)의 종류가 아닌 것은?

❶ 링(ring) 드롭 해머
② 로우프(rope) 드롭 해머
③ 판(板) 드롭 해머
④ 벨트(belt) 드롭 해머

12. 목형 제작에서 주물자(shrinkage scale)를 사용하는 이유는?

① 주형을 만들 때 흙이 줄기 때문에

❷ 쇳물이 굳을 때 줄기 때문에

③ 주형을 뽑을 때 움직이기 때문에

④ 나무가 줄기 때문에

13. 산소병을 취급할 때 주의사항으로 틀린 것은?

❶ 밸브 등에 기름을 주유하여 사용한다.

② 충격을 주지 않는다.

③ 밸브의 개폐는 천천히 한다.

④ 직사광선에 노출시키지 않는다.

14. 가스용접시 역화(back fire)의 원인 중 틀린 것은?

❶ 혼합가스의 연소속도가 분출속도보다 낮을 때

② 팁의 구멍이 불결할 때

③ 팁의 구멍이 확대 변형되었을 때

④ 작업 중 불꽃이 역행할 때

15. 파텐팅(patenting) 열처리를 옳게 나타낸 것은?

❶ 냉간 가공전에 시행하는 항온 변태 처리이다.

② 냉간 가공후에 시행하는 계단 담금질이다.

③ 펄라이트 조직을 안정화 시키는 처리이다.

④ 미세한 오스테나이트 조직을 주는 처리이다.

16. 가공경화(work hardening)현상이란?

① 소성변형에 대하여 경도가 감소하는 현상이다.

❷ 소성변형에 대하여 저항이 증가하는 현상이다.

③ 입자들 사이에 슬립이 생기는 현상이다.

④ 결정격자가 변화하는 현상이다.

17. 소성가공에서 열간가공과 냉간가공을 구분하는 온도는?

① 금속이 녹는 온도

② 변태점 온도

③ 발광 온도

❹ 재결정 온도

18. ø20H7g6로 끼워 맞추었다면 끼워맞춤의 종류는?

❶ 헐거운 끼워맞춤 이다.

② 중간 끼워맞춤 이다.

③ 억지 끼워맞춤 이다.

④ 억지 중간 끼워맞춤 이다.

19. 가공물을 양극으로 하고 불용해성인 납, 구리를 음극으로 하여 전해액 속에 넣으면 가공물의 표면이 전기에 의한 화학작용으로, 매끈한 면을 얻을 수 있는 방법은?

① 전기화학가공

❷ 전해연마

③ 방전가공

④ 화학연마

20. 진직도의 측정에 사용되는 측정기가 아닌 것은?

① 직선자(straight edge)

② 수준기(level)

❸ 스냅 게이지(snap gauge)

④ 오토콜리메이터(auto collimator)

## 【2과목】 기계설계 및 기계재료 (20문제)

21. 크랭크 축과 같이 복잡하고 큰 재료의 표면을 경화시키는데 가장 많이 사용하는 열처리 방법은?

① 침탄법

❷ 불꽃경화법

③ 질화법

④ 청화법

22. 알루미늄의 용도로서 적당하지 않는 것은?

① 드로잉 재료

② 다이캐스팅 재료

③ 자동차 구조용 재료

❹ 절삭날 재료

23. 다음 중 다이스강(dies steel)의 특징이 아닌 것은?

❶ 고온경도가 낮다.

② 경도가 높아 내마모성이 좋다.

③ 풀림처리 상태에서 가공성이 양호하다.

④ 담금질에 의한 변형이 적다.

**24.** 저융점 합금(Fusible alloy)의 설명 중 옳지 않은 것은?

❶ 포정계 합금

② 로즈합금, 뉴톤합금

③ 주성분은 Pb, Sn, Cd

④ 전기휴즈, 안전벨브등에 사용

**25.** 서멧(cermet)의 특성이 아닌 것은?

① 세라믹과 금속의 특성을 가진다.

② 세라믹과 금속을 결합시킨 소결 복합체이다.

❸ 고온에서 불안정하며 내열성이 나쁘다.

④ 산화물계 서멧에 사용되는 재질은 Al2O3나 BeO 등이다.

**26.** 구리의 특성이 아닌 것은?

① 가공성 용이

② 연성 양호

③ 내식성 양호

❹ 접합성 불량

**27.** 염소를 함유한 물을 쓰는 수관에서 주로 발생하는 현상으로서 불순물 또는 부식성 물질이 녹아 있는 수용액의 작용에 의해 황동의 표면 또는 깊은 곳까지 나타나는 현상은?

❶ 탈아연 부식

② 자연균열

③ 경년변화

④ 풀림경화

**28.** 강과 주철은 어느 것을 기준으로 하여 구분하는가?

① 첨가 금속함유량

❷ 탄소함유량

③ 금속조직 상태

④ 열처리상태

**29.** 풀림의 목적이 아닌 것은?

① 강의 경도를 저하시켜 연하게 한다.

❷ 경도를 증가시킨다.

③ 조직을 균질하게 한다.

④ 내부응력을 제거시킨다.

**30.** 피절삭성이 양호하여 고속절삭에 적합한 강은?

① 레일강

② 스프링강

❸ 쾌삭강

④ 외륜강

**31.** 긴장측 장력 Tt가 이완측 장력 Ts의 2배인 경우 긴장측 장력을 160kgf라 할 때 유효 장력은 몇 kgf인가? (단, 원심력의 영향은 무시한다.)

❶ 80

② 90

③ 160

④ 320

**32.** 레이디얼 저널베어링에 작용하는 압력 P를 구하는 식은? (단, W : 베어링하중, d : 저널의 지름, ℓ: 저널의 길이이다.)

① P = (dℓ)/W

❷ P = W/(dℓ)

③ P = d/(Wℓ)

④ P = W/(d2ℓ)

**33.** 하중 3ton이 걸리는 압축코일 스프링의 변형량이 10㎜일 때 스프링 상수는 몇 kgf/㎜인가?

❶ 300

② 1/300

③ 100

④ 1/100

**34.** V 벨트의 각도는 몇 도가 기준인가?

❶ 40°

② 43°

③ 44°

④ 46°

**35.** 핀 전체가 두 갈래로 되어있어 너트의 풀림 방지나 핀이 빠져 나오지 않게 하는데 사용되는 핀은?

① 테이퍼핀

② 너클핀

❸ 분할핀

④ 평행핀

**36.** 모듈(module) 2, 피치원지름 60mm인 표준 스퍼어 기어의 잇수는?

❶ 30

② 40

③ 50

④ 60

**37.** 미끄럼 베어링의 볼 베어링에 대한 비교 중 틀린 것은?

① 내충격성이 크다.

❷ 소음이 크다.

③ 고온에 약하다.

④ 교환성이 나쁘다.

**38.** 체결용 나사가 자립상태(自立狀態)를 유지하고 있을 경우 나사의 효율은 몇 % 이하인가?

❶ 50

② 60

③ 70

④ 80

**39.** 지름 20mm, 피치 2mm인 2줄 나사를 10회전 시켰더니 완전하게 체결되었다. 이 나사의 리드(lead)는 몇 mm인가?

① 20

② 40

❸ 4

④ 2

**40.** 성크키이의 폭, 높이, 길이가 각각 12(mm), 8(mm), 140(mm)일 때 키이의 접선력(kgf)은 얼마인가? (단, 허용전단응력 800kgf/cm$^2$ 이다.)

① 1344

② 1544

❸ 13440

④ 15440

**【3과목】 컴퓨터응용가공 (20문제)**

**41.**

| | |
|---|---|
| // | 0.01 |
| | 0.006/200 |

로 표시된 것의 뜻은?

① 소정의 길이 200mm에 대하여 0.006mm, 전체길이에 대하여 0.01mm의 대칭도

❷ 소정의 길이 200mm에 대하여 0.006mm, 전체길이에 대하여 0.01mm의 평행도

③ 소정의 길이 200mm에 대하여 0.006mm, 전체길이에 대하여 0.01mm의 직각도

④ 소정의 길이 200mm에 대하여 0.006mm, 전체길이에 대하여 0.01mm의 평면도

**42.** IGES 데이터 형식과 관계없는 것은?

① start section

② global section

❸ local section

④ terminate section

**43.** 다음 등각 투상도에서 화살표 방향을 정면도로 할 경우 좌측면

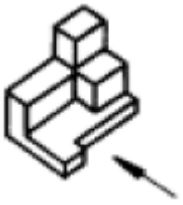

도는 어느 것인가?

①



②



❸



④



**44.** 투상도의 선택방법 중 틀린 것은?

① 주투상도에는 대상물의 모양, 기능을 가장 명확하게 표현하는 면을 그린다.

② 주투상도를 보충하는 다른 투상도는 되도록 적게하고 주투상도만으로 표시할 수 있는 것에 대하여는 다른 투상도는 그리지 않는다.

❸ 주투상도는 어떻게 놓더라도 괜찮다.

④ 서로 관련되는 그림의 배치는 되도록 숨은선을 쓰지 않도록 한다.

**45.** 겹판스프링 제도시 무하중 상태를 나타내는 선의 종류는?

① 가는 실선

② 가는 파선

❸ 가상선

④ 파단선

Download on the App Store 전자문제집 CBT(App Store) :[다운로드]
GET IT ON Google Play 전자문제집 CBT(Google Play) :[다운로드]

**46.** 다음의 형상 기하공차의 기호 중 진원도를 나타낸 것은?

❶ 

② 

③ 

④ 

**47.** 점 P(3,5)를 원점을 중심으로 90°회전시킬 때 회전한 점의 좌표는? (단, 반시계 방향을 양(+)의 각으로 한다.)

① (3 ,-5)

❷ (-5, 3)

③ (-3, 5)

④ (5, -3)

**48.** 도면에 나타난 그림의 크기가 치수와 비례하지 않을 때 표시하는 방법 중 틀린 것은?

① 치수밑에 밑줄을 긋는다.

② 비례가 아님으로 표시한다.

③ NS 로 기입한다.

❹ 치수를 ( ) 안에 넣는다.

**49.** 3차원변환을 위한 동차좌표계의 변환행렬은 4x4 행렬로 표현되며 보기와 같이 4개의 소행렬로 분할 할 수 있다. 이 중 좌상단의 3×3 소행렬에서 수행되는 역할이 아닌 것은?

$$\begin{bmatrix} 3_{(f)} & 3 \\ 1_{(f)} & 3 \end{bmatrix} \begin{bmatrix} 3_{(f)} & 1 \\ 1_{(f)} & 1 \end{bmatrix}$$

① 크기(scaling)

❷ 이동(translation)

③ 회전(rotation)

④ 전단(shearing)

**50.** 회전형 가변저항기를 X축과 Y축 방향으로 회전시켜 커서를 이동시키는 기구로 정확한 위치 선택이 용이하며, 주로 키보드와 같이 부착되어 있는 입력장치는?

❶ 섬휠(thumb wheel)

② 라이트 펜(light pen)

③ 디지타이져(digitizer)

④ 푸시 버튼(push button)

**51.** 다음 도면 중 꿩로 표시된 대각선은 무엇을 뜻하는가?

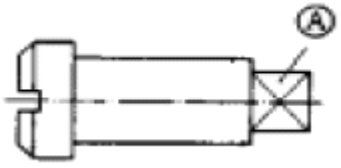


① 이 부분은 타원형이다.

② 이 부분은 열처리 부분이다.

③ 이 부분은 아주 정밀하게 가공하여야 한다.

❹ 이 부분은 평면이다.

**52.** $x^2+y^2+z^2-4x+6y-10z+2=0$인 방정식으로 표현되는 구의 중심점과 반지름은 얼마인가?

① 중심(-2, 3, -5), 반지름 : 6

❷ 중심(2, -3, 5), 반지름 : 6

③ 중심(-4, 6, -10), 반지름: 2

④ 중심(4, -6, 10), 반지름: 2

**53.** 다음 중에서 옳지 않은 설명은?

① 부품의 모서리 부분을 각이 지도록 깍아내는 것을 모따기(CHAMFERING)라고 한다.

② 치수기입시 원호가 180°가 못되는 것은 반지름으로 표시한다.

③ 호의 길이를 표시하는 치수선은 그 호와 같은 중심의 원호로 표시한다.

❹ 치수기입할 때 기록해야하는 숫자가 많은 경우 3자리마다 콤마(,)를 찍어야 한다.

**54.** 스퍼 기어를 제도 할 때 이끝원 및 피치원을 보통 무슨 선으로 표시 하는가?

❶ 굵은 실선, 가는 1점 쇄선

② 굵은 실선, 가는 2점 쇄선

③ 가는 실선, 가는 1점 쇄선

④ 가는 실선, 가는 2점 쇄선

**55.** 다음 그림과 같이 $x^2+y^2-2=0$인 원이 있다. 점 P(1,1)에서의 접선의 방정식은?

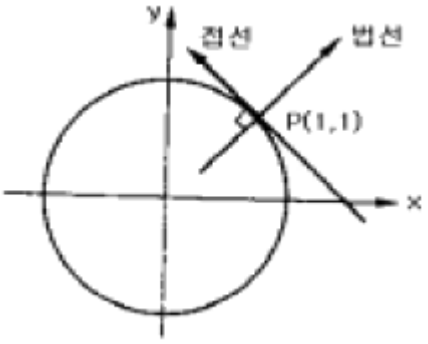


❶ 2(x-1)+2(y-1)=0

② (x-1)-(y-1)=0

③ 2(x+1)+2(y-1)=0

④ (x+1)+(y+1)=0

**56.** 21인치 1600x1200 픽셀 해상도 래스터모니터를 지원하는 그래픽보드가 트루칼라(24비트)를 지원하기 위해 필요한 최소 메모리는 얼마인가?

① 1 MB

② 4 MB

❸ 8 MB

④ 32 MB

**57.** 다음 중 입력장치가 아닌 것은?

① 라이트 펜

② 마우스

❸ 프린터

④ 스캐너

**58.** 나사의 종류를 표시하는 기호 중 미터사다리꼴 나사의 표시기호는 어느 것인가?

① M

② PT

❸ Tr

④ UNC

**59.** 다음은 모델링과 연관된 용어에 관한 설명이다. 잘못된 것은?

① 스위핑(Sweeping) : 하나의 2차원 단면형상을 입력하고 이를 안내곡선을 따라 이동시켜 입체를 생성

② 스키닝(Skinning) : 여러 개의 단면형상을 입력하고 이를 덮어 싸는 입체를 생성

③ 리프팅(Lifting) : 주어진 물체의 특정면의 전부 또는 일부를 원하는 방향으로 움직여서 물체가 그 방향으로 늘어난 효과를 갖도록 하는 것

❹ 블랜딩(Blending) : 주어진 형상을 국부적으로 변화시키는 방법으로 접하는 곡면을 예리한 모서리로 처리하는 방법

**60.** 다음은 솔리드 모델의 데이터 저장 구조인 분해 모델의 하나인 복셀(Voxel) 모델에 관한 설명으로 잘못된 것은?

① 사용하는 복셀의 크기 및 해상도에 따라 용량의 차이가 심하게 나타난다.

② 복셀 모델을 저장하기 위한 데이터 구조로 3차원 배열을 사용한다.

❸ 어떠한 형상이건 정확한 형상으로 표현이 가능하다.

④ 질량 성질(Mass Property)이나 불리안 작업의 계산이 편리하다.

**【4과목】 기계제도 및 CNC공작법 (20문제)**

61. 솔리드 모델링 기법 중 CSG(constructive solid geometry) 방법에 의한 형상 작업을 할 경우 불리언 연산(Boolean operation)을 하는데 이 작업에 해당하지 않는 것은?

① 합(∪)

② 차(–

❸ 곱(×)

④ 적(∩)

62. 와이어프레임 모델링 시스템에 관한 설명 중 틀린 것은?

① 모델의 은선처리가 어렵다.

② 삼차원 물체의 형상을 표현한다.

❸ 물체상의 점, 선, 면 정보로 구성된다.

④ 유한요소를 생성할 수 없다.

63. 100rpm으로 회전하는 스핀들에서 2회전 드웰(dwell)을 프로그래밍하려면 몇 초간 정지지령을 사용하는가?

❶ 1.2초

② 1.8초

③ 2.4초

④ 3.6초

64. CNC 선반에서 그림과 같은 원호절삭을 하려고 한다. A에서 B로 절삭하는 다음 프로그램 중 맞는 것은?

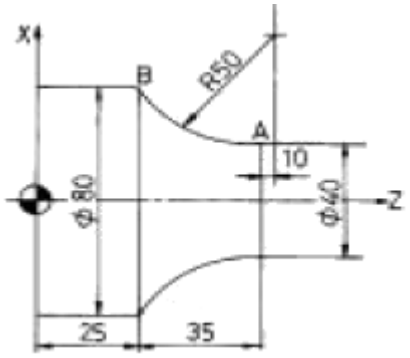


① G02 X80.0 Z25.0 I10.0 K50.0 F0.2;

❷ G02 U40.0 W-35.0 I48.99 K10.0 F0.2;

③ G02 X80.0 W35.0 I48.99 K10.0 F0.2;

④ G02 X40.0 Z-35.0 I10.0 K50.0 F0.2;

65. CNC 선반가공에서 절삭동력이 3 kW이고, 선반의 주축회전 수가 1000 rpm 일때, Ø60 mm의 환봉을 절삭하는 주분력은 몇 N 인가?

❶ 955

② 544

③ 106

④ 1060

66. 그림과 같은 형상을 가공하기 위한 프로그램 중 틀린 부분은?

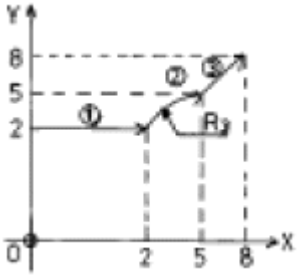


① ① G90 G01 X2. Y2. F100;

② ② G02 X5. Y5. R3. F100;

❸ ② G03 X5. Y5. R3. F100;

④ ③ G01 X8. Y8. F100;

67. CNC 공작기계에서 전원을 투입한 후 기계운전을 안전하게 하기 위한 첫번째 조작은?

① 프로그램 편집

② 공작물 좌표계 설정

❸ 원점복귀

④ 수동Mode로 주축 회전

68. CNC기계의 움직임을 전기적인 신호로 표시하는 일종의 회전 피드백(feed back) 장치는?

① 볼 스크루

❷ 리졸버

③ 서보기구

④ 컨트롤러

69. 다음은 CNC선반프로그램이다. N40 블록 가공시 절삭시간은 약 얼마인가?

```
N10 G50 X150. Z150. S1000 T0100 M41;
N20 G96 S200 M03;
N30 G00 X30. Z10. T0101 M08;
N40 G01 Z-100. F0.2;
```

① 30초
❷ 33초
③ 2분 30초
④ 2분 45초

70. CAD시스템에서 이용되는 2차 곡선방정식에 대한 설명으로 올바르지 못한 것은?

① 곡선식에 대한 계산시간이 3차, 4차식보다 적게 걸린다
② 여러개의 곡선을 하나의 곡선으로 연결하는 것이 가능하다.
❸ 연결된 여러개의 곡선사이의 곡률의 연속이 보장된다.
④ 매개변수식으로 표현하는 것이 가능하기도 하다.

71. 4개의 경계곡선을 선형 보간하여 만들어지는 곡면은?

① 선형 곡면
❷ 쿤스 곡면
③ 퍼거슨 곡면
④ 베지어 곡면

72. CNC공작기계에서 로스트 모션(lost motion)이란?

① CNC장치의 연산부가 잘못 동작해서 테이프 지령과 틀린 동작을 말한다.
② 이송핸들의 휨량을 말한다.
❸ 위치결정에서 생기는 정방향과 부방향의 정지위치의 오차를 말한다.
④ NC공작기계의 볼스크루(ball screw)와 너트(nut)의 간격을 말한다.

73. 다음 모델링 기법 중 빌딩블럭(building block)개념을이용하여 모델링하는 방식은?

① 와이어프레임(Wire frame) 모델
❷ CSG(Constructive Solid Geometry) 모델
③ B-Rep.(Boundary Representation) 모델
④ 서피스(Surface) 모델

74. CNC의 외부 기억장치를 통하여 프로그램을 내부 기억장치와 입·출력할 때 1분에 전송가능한 최대 비트(bit)수를 무엇이라 하는가?

❶ 전송속도
② 인터페이스
③ 데이터 비트
④ 파라메타

75. 다음 중 CAM에서 정의한 공구경로(CL data)에서 NC콘트롤러에 맞는 NC코드를 생성하는 것을 무엇이라 하는가?

① 테이프 판독기(tape reader)
② 패리티 체크(parity check)
❸ 포스트 프로세서(post processor)
④ 산술 계산기(arithmatic calculation)

76. 피치에러(Pitch error) 보정이란?

① 볼스크루 피치의 정밀도를 검사하는 기능
② 축의 이동이 한 방향에서 반대 방향으로 이동할 때 발생하는 편차값을 보정하는 기능
③ 나사가공의 피치를 정밀하게 보정하는 기능
❹ 볼스크루의 부분적인 마모 현상으로 발생된 피치간의 편차값을 보정하는 기능

77. 머시닝센터에서 전원 투입시 자동으로 설정되는 G코드는?

① G04
② G41
❸ G80
④ G92

78. 곡면을 가공할 때 볼 엔드밀이 지나가고 남은 흔적을 말하며 골간의 간격에 따라서 높이가 달라지게 되는 것은?

① path
② length
③ pitch
❹ cusp

*79.* 곡선이나 패치를 구성하기 위해 사용하는 다항식의 최고차수를 degree라 한다. 이때 3×4인 degree의 경우에는 패치를 구성하기 위한 점의 수는?

① 2×3

② 3×4

❸ 4×5

④ 6×8

*80.* NC선반에서 지름 49.9(가공치수)부위를 가공 후 측정하였더니 지름 50 이었다. 이 경우 해당공구의 공구 보정값은 얼마로 하여야 하는가? (단, 현보정값 X=10.0, Z=4.0 이다.)

① X=9.9, Z=3.9

❷ X=9.9, Z=4.0

③ X=10.2, Z=3.9

④ X=11.1, Z=4.1