2016년07월06일년 수능(세계지리) 필기시험 기출문제 답안

【1과목 : 20문제】 과목 구분 없음	1	2	3	4	5	6	7	8	9	10
	①	②	⑤	③	③	④	③	③	⑤	⑤
	11	12	13	14	15	16	17	18	19	20
	②	①	⑤	⑤	④	②	③	④	④	①

전자문제집 CBT 홈페이지 : https://www.cbtestpro.kr

최신 수정 자료와 해설(오타・오답・규정변경)은 cbtestpro.kr 웹 및 앱에서 확인하세요.

기출문제의 저작권은 출제기관에 있습니다. cbtestpro.kr 및 관련 앱에서는 편집 및 재구성 작업만 하였음을 밝힙니다.

CBT 기출문제

전자문제집 CBT

빠르고 효과적으로 배워 시험 합격을 노려라!

Download on the App Store

GET IT ON Google Play

【1과목】 과목 구분 없음 (20문제)

1. (가), (나) 지도에 대한 설명으로 옳은 것은?

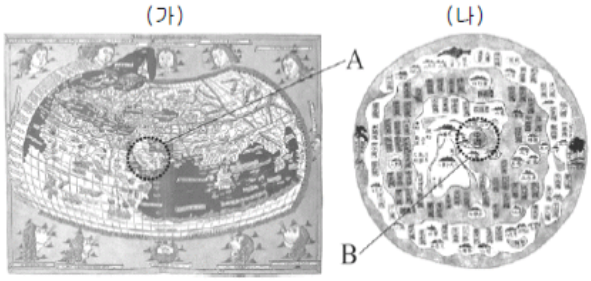

① (가)는 경위선의 개념과 투영법이 사용되었다.

② (나)는 지구가 구체(球體)라는 지리적 인식이 반영되었다.

③ (가)의 A와 (나)의 B는 동일한 지역이다.

④ (가), (나)에는 모두 아메리카 대륙이 표현되어 있다.

⑤ (가)는 크리스트교, (나)는 이슬람교의 세계관이 반영되어 있다.

2. 다음 자료의 (가), (나)에 해당하는 지역을 지도의 A~E에서 고른 것은? (순서대로 가, 나)

(가) 두 판이 분리되는 경계에 위치하여 화산 활동이 활발한 이 지역에서는 지하의 뜨거운 증기나 지하수를 이용하여 전기를 생산한다.
(나) 대륙판과 해양판이 충돌하는 경계에 위치하여 지진과 화산 활동이 활발한 이 지역에서는 구리와 유황 등의 매장량이 많아 자원 개발이 활발하다.

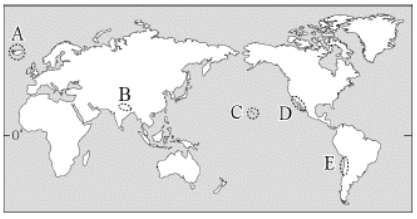

① A, C

② A, E

③ B, D

④ B, E

⑤ D, C

3. 그래프는 주요 가축 사육 상위 4개국의 비중을 나타낸 것이다. (가)~(다)에 대한 설명으로 옳은 것은? (단, (가)~(다)는 소,양, 돼지 중 하나임.)

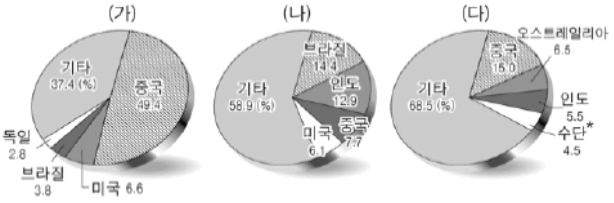

* 수단은 남수단의 수치를 포함함. (2013)

① (가)는 치즈, 버터 등과 같은 유제품을 제공해준다.

② (나)는 모직공업의 발달에 따라 기업적으로 사육한다.

③ (다)는 벼농사 지역에서 노동력 대체 효과가 크다.

④ (가), (나)는 서남아시아에서 유목 형태로 사육된다.

⑤ (나)는 (다)보다 강수량이 많은 곳에서 사육된다.

4. 다음 글은 두 지역의 축제를 정리한 것이다. 밑줄 친 (가) 도시에 대한 (나) 도시의 상대적 특징을 그림의 A~E에서 고른 것은? [3점]

○ '북방의 수도(水都)'라 불리는 (가)에서 하지(夏至)를 전후하여 열리는 축제로 밤 11시가 넘어서야 어둠이 깔리는 하얀 밤을 배경으로 음악, 연극 등을 즐긴다.
○ 세계 3대 미항(美港) 중 하나인 (나)에서 매년 2~3월에 열리는 축제로 화려한 의상을 입은 무희들이 흥겨운 삼바 리듬에 맞춰 춤을 추면서 각종 퍼레이드를 펼친다.

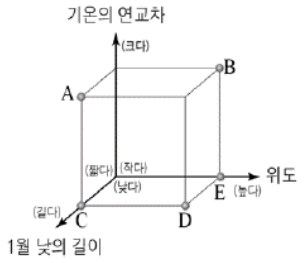

① A

② B

③ C

④ D

⑤ E

5. 다음 자료는 여행 예정지의 기후 그래프이다. 여행 경로로 옳은 것은? (순서대로 출발지, 경유지, 도착지) [3점]

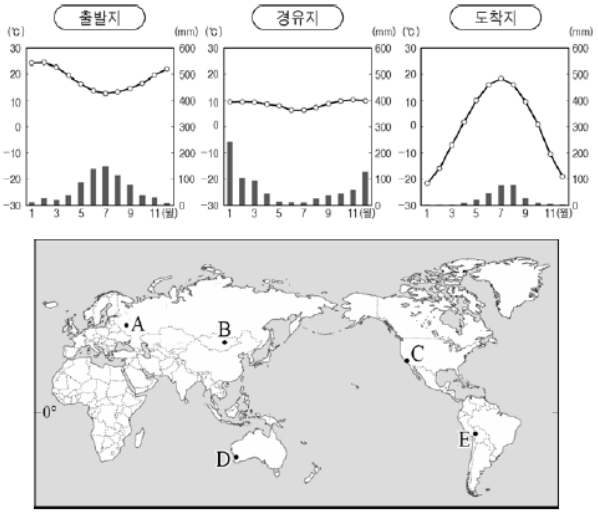

① C, E, A

② D, B, A

③ D, E, B

④ E, C, A

⑤ E, C, B

6. 지도의 A~D에 대한 옳은 설명을 <보기>에서 고른 것은? [3점]

<보 기>

ㄱ. A는 V자곡이 침수되어 형성된 리아스 해안이다.
ㄴ. B는 조수 간만의 차가 커서 갯벌이 넓게 발달한다.
ㄷ. C는 침식 작용이 우세한 해안에서 발달한다.
ㄹ. D는 하천의 유속 감소로 하구에 형성된 충적 지형이다.

① ㄱ, ㄴ

② ㄱ, ㄷ

③ ㄴ, ㄷ

④ ㄴ, ㄹ

⑤ ㄷ, ㄹ

7. 그래프는 어느 두 지역의 월 강수 편차와 월평균 기온을 나타낸 것이다. (가), (나) 지역에 대한 설명으로 옳은 것은?

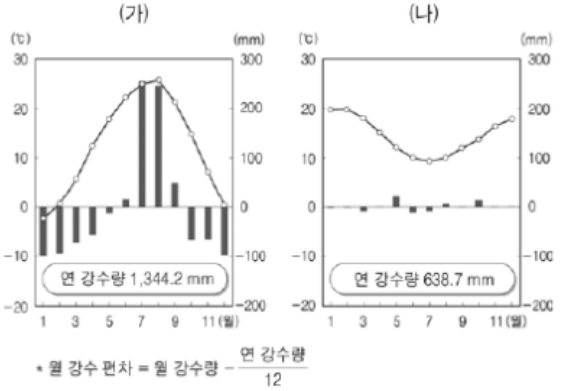

① (가)는 남반구에 위치한다.

② (나)는 건조 기후에 해당한다.

③ (가)는 (나)보다 계절풍의 영향을 많이 받는다.

④ (나)는 (가)보다 기온의 연교차가 크다.

⑤ (가)는 혼합 농업, (나)는 벼농사가 주로 발달한다.

8. 그래프는 세 국가의 도시화율 변화를 나타낸 것이다. A~C 국가에 대한 설명으로 옳은 것은?

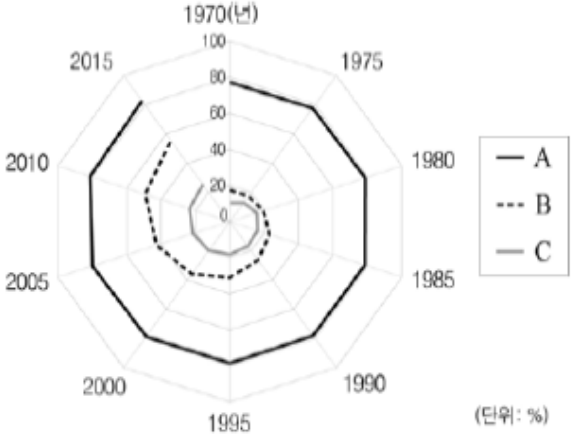

① C는 A보다 도시의 내부 구조 분화가 뚜렷하다.

② 3차 산업 종사자 비중은 C>B>A 순으로 높다.

③ 2015년에 B는 도시 인구가 농촌 인구보다 많다.

④ 2005년 이후 C는 도시화의 종착 단계에 진입했다.

⑤ 1990~2010년에 도시화율의 증가폭은 A가 가장 크다.

9. 다음 자료는 주요 국가의 1차 에너지원별 소비 구조를 나타낸것이다. A~D에 대한 설명으로 옳은 것은? [3점]

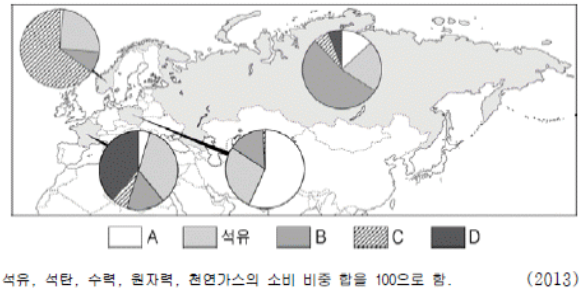

① A는 신기 조산대 주변에 주로 매장되어 있다.

② B는 핵폐기물 처리에 어려움이 있다.

③ D는 냉동 액화 기술의 개발 이후 소비가 급증하였다.

④ C는 B보다 에너지 자원의 고갈 위험성이 크다.

⑤ D는 A보다 상용화된 시기가 늦다.

10. 그래프는 세 보편 종교의 지역별 신자 수 비중을 나타낸 것이다. (가)~(다)에 대한 설명으로 옳은 것은? [3점]

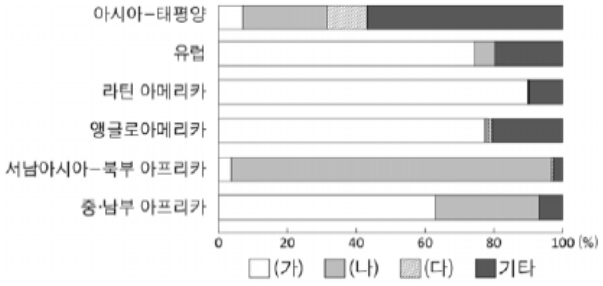

① (가)의 종교 경관은 아라베스크 무늬가 있는 모스크이다.

② (나)의 수행자들은 육식을 금하고 채식을 선호한다.

③ (다)의 신자들은 하루에 5번 성지를 향해 예배한다.

④ (가)에 비해 (다)는 발생 시기가 늦다.

⑤ (나)에 비해 (가)는 신자 수가 많다.

11. 다음 자료의 (가), (나) 지형이 주로 나타나는 지역의 기후 특성을 그래프의 A~E에서 고른 것은? (순서대로 가, 나)

(가)



바람에 날린 모래에 의해 침식되어 형성된 버섯 모양의 바위

(나)

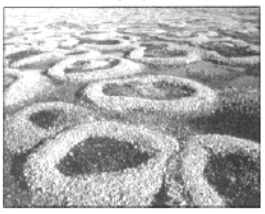

토양층이 동결과 융해를 반복하여 형성된 다각형 모양의 지형

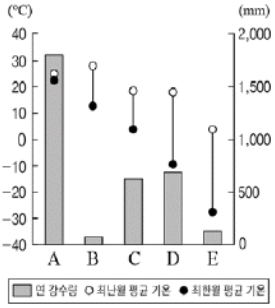

① B, A

② B, E

③ C, D

④ C, E

⑤ D, A

12. 다음 글은 세계의 전통 음식을 설명한 것이다. 밑줄 친 (가)~(다)에 해당하는 주요 식량 작물에 대한 설명으로 옳은 것은?

> ○ 크루아상은 (가)의 가루를 우유, 버터 등과 반죽한 후 구운 빵이다. 오스트리아가 오스만 튀르크 제국의 침략을 물리친 기념으로 초승달 모양을 본떠 만들었다.
> ○ 퍼(pho)는 (나)(으)로 국수를 만들어 소나 닭의 뼈를 고아 만든 국물에 숙주나물과 고수 잎 등을 얹어 먹는 음식이다.
> ○ 토르티야는 (다)을/를 가루 내어 반죽한 뒤 밀전병처럼 동그랗게 구운 것이다. 토르티야에 여러 가지 재료를 넣어 먹는 타코는 최근 세계 각지로 확산되고 있다.

① (가)는 식량 작물 중 국제 이동량이 가장 많다.

② (가)는 (나)보다 인구 부양력이 높다.

③ (가)는 (나)보다 단위 면적당 농업용수 사용량이 많다.

④ (나)는 (다)보다 가축의 사료로 이용되는 비중이 높다.

⑤ (가)는 아시아, (나)는 아메리카 대륙이 기원지이다.

13. 다음 자료에 대한 설명으로 옳은 것은? (단, (가)~(다)는 아시아, 아프리카, 유럽 중 하나임.) [3점]

<주요 국가의 출생률과 1인당 GNI>

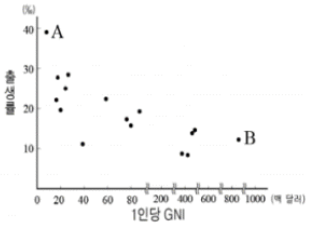

(2012)

* GNI: 한 나라의 국민이 일정 기간 생산 활동에 참여한 대가로 받은 소득의 합계임.

<대륙별 노령화 지수>

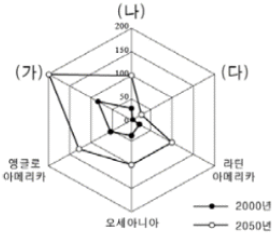

* 노령화 지수=(65세 이상 인구/14세 이하 인구)×100

** 2050년은 추정치임.

① A는 B보다 출생 시 기대 수명이 높다.

② A는 (가), B는 (나)에 속하는 국가이다.

③ 1인당 GNI가 높을수록 출생률도 높아진다.

④ 노령화 지수 증가폭이 가장 큰 지역은 (나)이다.

⑤ 2000년에 (다)는 노년 인구보다 유소년 인구가 많다.

14. 그림은 (가) 시기의 적도 수렴대 위치를 모식적으로 나타낸 것이다. 이 시기 지도의 A~C 지역에 대한 설명으로 옳은 것은? (단, (가) 시기는 1월과 7월 중 하나임.) [3점]

(가)

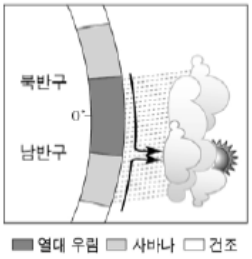

① A는 거의 매일 대류성 강수가 나타난다.

② A는 북풍보다 남풍 계열의 바람이 우세하다.

③ B는 아열대 고압대의 영향을 크게 받는다.

④ C는 건기에 해당하여 동물들이 북쪽으로 이동한다.

⑤ C는 A보다 낮의 길이가 길다.

15. 그래프는 지도에 표시된 국가의 인종(민족) 구성을 나타낸 것이다. 이에 대한 설명으로 옳은 것은? (단, A~C는 원주민, 유럽계, 혼혈 중 하나임.) [3점]

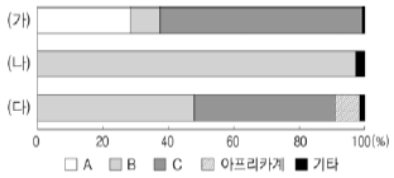

① (가)의 B는 고산 지역에 고대 문명을 발달시켰다.

② (나)는 브릭스(BRICS)에 속하는 국가이다.

③ (다)는 에스파냐 어를 공용어로 사용한다.

④ A는 B보다 아메리카 대륙에서의 거주 역사가 길다.

⑤ B는 A, C, 아프리카계 사이의 혼혈이다.

16. 다음 글의 밑줄 친 (ㄱ)~(ㅁ)에 대한 옳은 설명을 <보기>에서 고른 것은?

> 스포츠용품을 생산·판매하는 세계적인 ○○기업의 ㉠ 본사는 미국 오리건 주에 있으며, 이 기업에서 판매되는 상품은 모두 외국에 있는 ㉡ 생산 공장에서 제작된다. 창업 초기에는 일본에 생산 공장을 설립하였으나 1970년대 후반 ㉢ 대한민국, 타이완으로 생산 공장을 이전하였다. 이후 1980년대에는 ㉣ 중국, 1990년대에는 ㉤ 베트남, 인도네시아 등의 동남아시아 지역으로 생산 공장을 이전하였다.

<보 기>

ㄱ. ㉠은 경영 기획 및 관리 기능을 주로 담당한다.
ㄴ. ㉡은 ㉠보다 고급 전문 인력이 더 요구된다.
ㄷ. ㉣에 공장이 입지한 것은 ㉢의 노동비가 상승한 것과 관련이 있다.
ㄹ. 생산 공장이 ㉤으로 이전함에 따라 ㉢과 ㉣의 근로자들이 ㉤에 대규모로 유입된다.

① ㄱ, ㄴ

② ㄱ, ㄷ

③ ㄴ, ㄷ

④ ㄴ, ㄹ

⑤ ㄷ, ㄹ

17. 다음 자료를 바탕으로 추론한 내용으로 적절한 것은? [3점]

<신생대 제4기 해수면 변화>

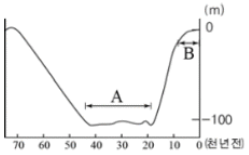

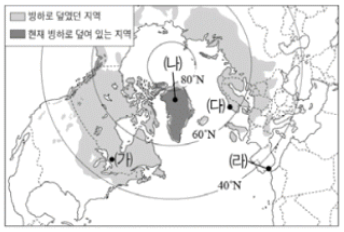

① A 시기에 (가)에는 활동층이 두껍게 분포하였을 것이다.

② A 시기에 (나)에서는 모레인을 흔히 볼 수 있었을 것이다.

③ B 시기에 (다)에는 피오르가 발달하였을 것이다.

④ B 시기에 (라)에는 빙력토 평원이 넓게 분포하였을 것이다.

⑤ B보다 A 시기에는 빙하의 분포 면적이 좁았을 것이다.

18. 지도는 세계 도시의 계층 체계를 나타낸 것이다. (가), (나)에 대한 설명으로 옳은 것은?

① (가)는 (나)보다 국제기구의 본부 수가 적다.

② (나)는 (가)보다 생산자 서비스의 발달 수준이 높다.

③ (가), (나)를 구분하는 가장 중요한 기준은 인구 규모이다.

④ (가)는 (나)보다 동일 계층의 도시 간 평균 거리가 멀다.

⑤ 교통과 통신이 발달할수록 (나)에 대한 (가)의 영향력이 작아진다.

Download on the App Store 전자문제집 CBT(App Store) :[다운로드]
GET IT ON Google Play 전자문제집 CBT(Google Play) :[다운로드]

19. 지도의 A~D 분쟁 지역에 대한 옳은 설명만을 <보기>에서 있는 대로 고른 것은? [3점]

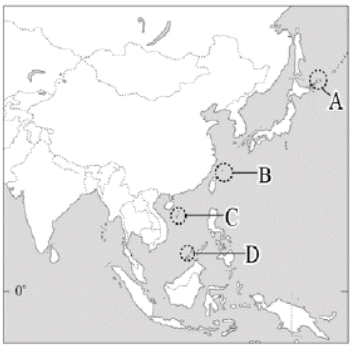

<보 기>

ㄱ. A는 러시아가 실효적 지배를 하고 있다.
ㄴ. B의 분쟁은 종교적 차이가 주된 요인이다.
ㄷ. D는 A보다 분쟁 당사국의 수가 많다.
ㄹ. 중국은 B, C, D의 분쟁 당사국으로 모두 포함되어 있다.

① ㄱ, ㄷ

② ㄴ, ㄹ

③ ㄱ, ㄴ, ㄹ

④ ㄱ, ㄷ, ㄹ

⑤ ㄴ, ㄷ, ㄹ

20. 다음 자료는 사이버 학습 장면의 일부이다. (ㄱ)~(ㄹ) 중 옳은 내용을 고른 것은?

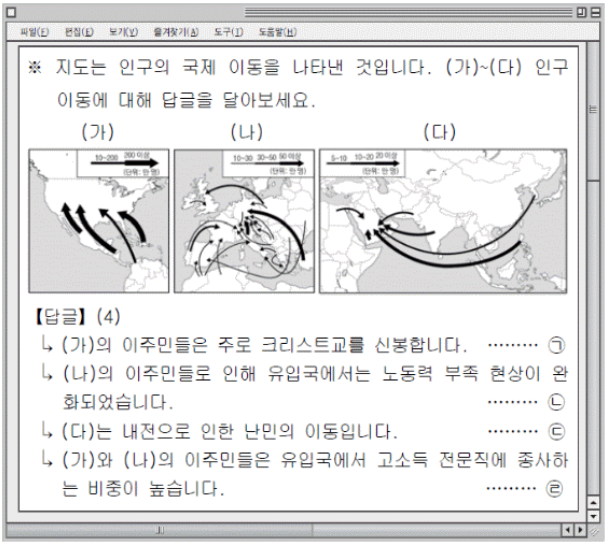

① ㄱ, ㄴ

② ㄱ, ㄷ

③ ㄴ, ㄷ

④ ㄴ, ㄹ

⑤ ㄷ, ㄹ