2014년10월07일년 수능(세계지리) 필기시험 기출문제 답안

【1과목 : 20문제】 과목 구분 없음	1	2	3	4	5	6	7	8	9	10
	⑤	⑤	③	②	③	②	①	①	④	④
	11	12	13	14	15	16	17	18	19	20
	④	③	⑤	⑤	②	③	②	②	①	④

전자문제집 CBT 홈페이지 : https://www.cbtestpro.kr

최신 수정 자료와 해설(오타・오답・규정변경)은 cbtestpro.kr 웹 및 앱에서 확인하세요.

기출문제의 저작권은 출제기관에 있습니다. cbtestpro.kr 및 관련 앱에서는 편집 및 재구성 작업만 하였음을 밝힙니다.

CBT 기출문제

전자문제집 CBT

빠르고 효과적으로 배워 시험 합격을 노려라!

Download on the App Store

GET IT ON Google Play

【1과목】 과목 구분 없음 (20문제)

1. 다음은 어느 국가에서 실시하고 있는 프로그램이다. 이 프로그램에 대한 설명으로 적절하지 않은 것은?

> 지역 사회 보존 프로그램
>
> 이 프로그램은 1996년에 시작되어 2007년 현재 50개 지역으로 확대되었다. 이 프로그램을 실시하는 지역의 총면적은 전국토의 약 14 %에 이른다. 이 프로그램이 실시되는 지역에서는 사냥, 포획, 채집 등의 허가, 야영지 관리, 수공예품 판매 등에 대한 권한을 지역 사회가 가지고 있다. 지역 사회의 수익이 주민들에게 분배되기 때문에 주민들은 이 프로그램에 적극적으로 참여한다. 이전에는 주민들의 야생 동물 불법 사냥이 많았지만, 이 프로그램을 운영한 이후에는 주민들이 야생 동물을 적극적으로 보호하고 있다.

① 지속 가능한 발전을 추구한다.

② 지역의 독특한 특성을 활용한다.

③ 지역 주민에게 이익이 돌아간다.

④ 지역 사회의 전통을 유지하는 데 도움이 된다.

❺ 대량 소비 중심의 관광 문화 정착에 기여한다.

2. 다음 글의 밑줄 친 (ㄱ) ~ (ㄹ)에 대한 옳은 설명만을 <보기>에서 있는 대로 고른 것은? [3점]

> 며칠을 걸은 끝에 도착한 라비그에서는 ㉠ 비가 내린 후 몇 개의 호수가 생겼다. 또다시 3일을 걸었는데, 그 중 반나절은 온통 ㉡ 모래뿐인 지역을 지나야 했다. 드디어 ㉢ 할리스 마을에 도착하여 연못가에서 휴식을 취하였다. 그 근처에는 우물이 하나 있었는데, 우물물이 ㉣ 인공 수로를 따라 대추야자 밭으로 흘러가고 있었다. …(중략)… 우리는 밤새 길을 걸어 아브라함이 살았고 무함마드가 계시를 받았던 메카에 도착했다.
>
> – 『이븐 바투타 여행기』 –

< 보 기 >

ㄱ. ㉠ – 주민들은 호수의 물을 식수로 사용한다.
ㄴ. ㉡ – 바람의 퇴적 작용으로 형성된 사구가 있다.
ㄷ. ㉢ – 오아시스를 중심으로 형성된 마을이다.
ㄹ. ㉣ – 관개 농업이 이루어지고 있다.

① ㄱ, ㄴ

② ㄱ, ㄷ

③ ㄴ, ㄹ

④ ㄱ, ㄷ, ㄹ

❺ ㄴ, ㄷ, ㄹ

3. 그래프의 A ~ D 종교에 대한 옳은 설명을 <보기>에서 고른 것은? [3점]

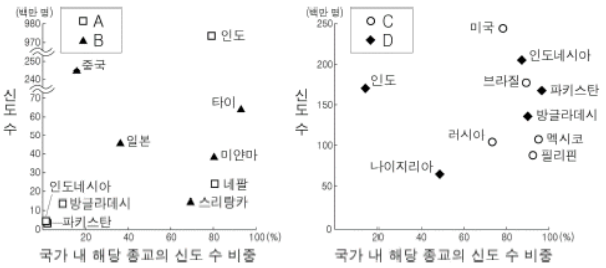

* 신도 수 상위 5개국을 나타냄. (2010)

< 보 기 >

ㄱ. A는 세계에서 신도 수가 가장 많으며, 유일신을 신봉한다.
ㄴ. D의 신자들은 하루에 다섯 번씩 성지를 향해 예배를 한다.
ㄷ. A와 B는 남부 아시아, C와 D는 서남아시아에서 기원하였다.
ㄹ. A와 C는 민족 종교, B와 D는 보편 종교이다.

① ㄱ, ㄴ

② ㄱ, ㄷ

❸ ㄴ, ㄷ

④ ㄴ, ㄹ

⑤ ㄷ, ㄹ

4. 다음 자료는 수행 평가 보고서이다. (가), (나)에 해당하는 지역을 지도의 A ~ D에서 고른 것은? (순서대로 가, 나)

유럽의 주요 축제가 열리는 지역들

지역	특 징
(가)	이곳은 깨끗하고 평화로운 물의 도시로 알려져 있다. 하지 축제, 물 축제, 재즈 페스티벌 등 이곳의 축제는 낮 길이가 20여 시간에 달하는 여름에 주로 열린다. 겨울에 성탄절을 전후로 하여 열리는 세인트루시아 축제는 촛불 왕관을 쓴 빛의 여왕이 노래를 부르며 거리를 행진하는 것으로 유명하다.
(나)	이곳은 토마토의 주산지로 알려진 지방의 작은 도시로 8월이 되면 토마토 축제가 열린다. 이 축제는 토마토 가격 폭락에 흥분한 농민들이 항의 차원에서 토마토를 던진 것에서 유래하였다. 지금은 수많은 관광객들이 빨갛게 익은 토마토를 서로 던지며 축제를 즐긴다.

① A, C
❷ A, D
③ B, C
④ B, D
⑤ C, D

5. 지도는 A, B 에너지 수출국 기구의 회원국을 나타낸 것이다. A, B 에너지에 대한 설명으로 옳은 것은? [3점]

(2012)

① A는 세계 1차 에너지 소비 구조에서 가장 큰 비중을 차지한다.
② B는 제철 공업의 주 에너지원으로 이용된다.
❸ A는 B보다 연소 시 오염 물질 배출량이 적다.
④ B는 A보다 상업적으로 이용되기 시작한 시기가 늦다.
⑤ A는 신생대, B는 고생대 지층에 주로 매장되어 있다.

6. 다음 자료는 세계 지도의 사례를 찾는 과정이다. A ~ D에 들어갈 화살표로 옳은 것은? (순서대로 A, B, C, D)

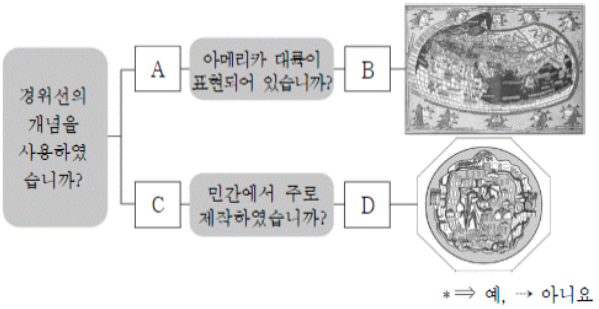

① ⇒, ⇒, ⇢, ⇒
❷ ⇒, ⇢, ⇢, ⇒
③ ⇒, ⇒, ⇢, ⇢
④ ⇢, ⇒, ⇒, ⇢
⑤ ⇢, ⇢, ⇒, ⇢

7. 다음 자료의 미국 내 A인종(민족)에 대한 설명으로 옳은 것은?

[A]은/는 가톨릭교 신자 비율이 높으며 주로 20세기 들어 미국으로 이주하였다.

[A]은/는 이주자의 증가와 높은 출산율로 인해 미국 내에서 인구가 급속히 증가하면서 미국의 정치, 경제, 언론 등 여러 분야에서 중요한 세력으로 떠오르고 있다.

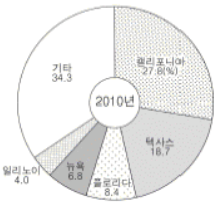

미국 내 A 인종(민족)의 주별 비중

❶ 가정에서는 주로 에스파냐 어를 사용한다.
② 내륙에 있는 보호 구역에 주로 거주하고 있다.
③ 미국 전체 인구에서 차지하는 비중이 가장 높다.
④ 동남부 지역의 농장 노동력으로 강제 이주당했다.
⑤ 아시아에서 이주하여 태평양 연안에 집중 분포한다.

8. 다음 자료의 밑줄 친 '이곳'의 위치를 지도의 A ~ E에서 고른 것은? [3점]

○○ 지역 관광 안내문

이곳은 조류의 퇴적 작용으로 형성된 지형이 넓게 발달해 있습니다. 과거 수십 년간 간척을 통해 이 지형이 많이 사라졌으나, 현재는 인접한 세 나라가 공동으로 이곳을 관리하면서 해양 생태계가 잘 보전되고 있습니다. 세계 자연 유산이기도 한 이곳에서 체험 활동을 할 때에는 각별한 주의가 필요합니다. 진흙 속에 파묻히거나, 밀물에 휩쓸릴 수 있기 때문입니다. 그래서 밀물과 썰물 시간을 반드시 확인해야 합니다. 또한 수많은 야생 동물의 생활 환경을 훼손하지 않도록 해야 합니다.

❶ A

② B

③ C

④ D

⑤ E

9. 다음 자료는 다큐멘터리 촬영 계획의 일부이다. A ~ E 지역에서의 촬영 주제로 적절하지 않은 것은?

- 프로그램 제목 : 안데스 산지, 8,000 ㎞를 가다
- 기획 의도 : 세계 최장의 산맥, 이곳을 따라 여러 문명이 발생하고 사라졌다. 안데스와 그 주변의 독특한 자연환경과 인문 환경을 고품격 영상에 담는다.
- 지역별 촬영 주제

① A

② B

③ C

❹ D

⑤ E

10. 지도는 어떤 지표를 기준으로 그린 것이다. 이 지표로 옳은 것은? [3점]

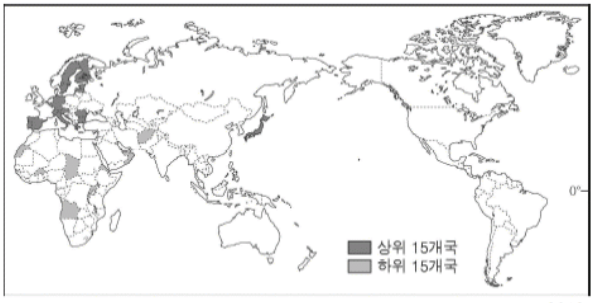

(2013)

① 인구 밀도

② 국내 총생산

③ 합계 출산율

❹ 노년 인구 비율

⑤ 1차 산업 종사자 비율

11. 그래프의 (가), (나) 국가에 대한 설명으로 옳은 것은?

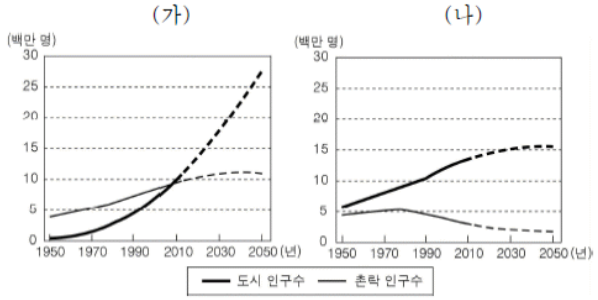

① 1950년에 (가)는 도시화 초기, (나)는 도시화 종착 단계이다.

② 1970년에 (가)는 (나)보다 총인구가 많다.

③ 1990년에 (가)는 (나)보다 1차 산업 종사자 비율이 낮다.

❹ 2010년 이후 (가)는 (나)보다 도시 인구 증가율이 높을 것이다.

⑤ 2050년에 (가)는 (나)보다 도시 인구 비율이 높을 것이다.

12. 그림은 어느 작물의 최대 수입국과 최대 수출국을 나타낸 것이다. 이 작물에 대한 설명으로 옳은 것은?

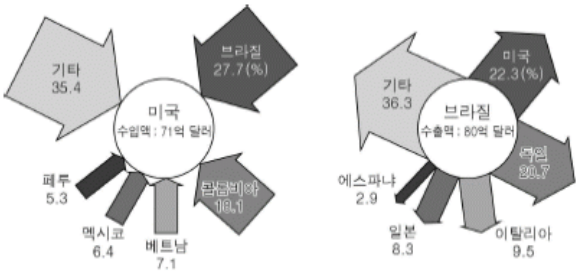

(2011)

① 주로 아시아인들이 주식으로 소비한다.

② 아메리카 대륙이 원산지로 초콜릿의 주원료이다.

❸ 씨앗을 건조시킨 후 볶아서 음료를 만드는 데 사용된다.

④ 사료용 곡물로 최근 바이오 에탄올의 원료로 많이 사용된다.

⑤ 내한성 · 내건성이 커서 냉대 및 반건조 지역에서도 재배된다.

13. 지도는 훔볼트의 남아메리카 탐사 경로를 나타낸 것이다. A ~ D에 대한 옳은 설명을 <보기>에서 고른 것은? [3점]

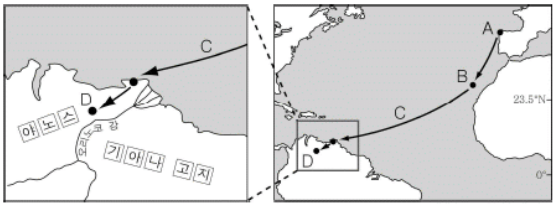

< 보 기 >

ㄱ. A – 기온의 연교차가 큰 대륙성 기후가 나타난다.
ㄴ. B – 편서풍의 영향으로 연중 강수량이 고르다.
ㄷ. C – 아열대 고압대에서 적도 수렴대를 향해 무역풍이 분다.
ㄹ. D – 연중 기온이 높고 강수의 계절 차가 크다.

① ㄱ, ㄴ

② ㄱ, ㄷ

③ ㄴ, ㄷ

④ ㄴ, ㄹ

❺ ㄷ, ㄹ

Download on the App Store 전자문제집 CBT(App Store) :[다운로드]
GET IT ON Google Play 전자문제집 CBT(Google Play) :[다운로드]

14. 다음은 지리 수업 장면의 일부이다. 발표 내용이 옳은 학생을 고른 것은?

교사 : 다음 자료의 A와 관련된 환경 변화에 대해 발표해 볼까요?

> 남태평양에 위치한 키리바시 공화국은 피지에 있는 약 2,000 ㎢의 토지를 877만 달러에 매입했다. 이는 국토 침수 위기국의 첫 해외 토지 매입 사례이다. 실제 키리바시의 일부 섬들은 완전히 바닷물에 잠겼다. [A] 현상에 따른 해수면 상승이 지속된다면 50년 안에 키리바시 국토 전체가 수몰될 것이라고 환경 전문가들은 예상하고 있다.
>
> – ○○신문, 2014년 7월 2일 자 –

갑 : 알래스카에서 영구 동토층이 확대됩니다.
을 : 알프스 고산 지역에서 빙하가 확대됩니다.
병 : 시베리아에서 경작 가능 지역이 확대됩니다.
정 : 남태평양에서 산호초의 백화 현상이 심화됩니다.

① 갑, 을

② 갑, 병

③ 을, 병

④ 을, 정

❺ 병, 정

15. 다음 글은 아프리카로 자원 봉사를 다녀온 학생의 기행문 일부이다. (ㄱ) ~ (ㅁ)에 대한 지리적 설명으로 옳지 않은 것은?

> 2014년 1월 케냐 나이로비(㉠ 남위 1°17′, 동경 36°49′)에 도착하였다. 나이로비에서 북동쪽으로 이동하여 적도를 지나서 ㉡ 소말리 어를 사용하는 부족이 사는 ㉢ ○○ 마을에 이르렀다. ㉣ 건기라 풀은 메말라 있었지만 평화로운 분위기의 마을이었다. 이 부족민과의 면담을 통해 ㉤ 유목민이었던 소말리 족이 오랜 가뭄으로 가축이 죽어 가자 이곳으로 옮겨 와 정착했음을 알게 되었다.

① (ㄱ) - 위치를 나타내는 공간 정보이다.

❷ (ㄴ) - 원격 탐사 기법을 사용하여 수집된 정보이다.

③ (ㄷ) - 북반구에 위치하고 있다.

④ (ㄹ) - 장소가 지닌 자연적 특성을 나타내는 속성 정보이다.

⑤ (ㅁ) - 현지 조사를 통해 수집된 정보이다.

16. 그래프는 세 지역의 누적 강수량과 월평균 기온을 나타낸 것이다. (가) ~ (다) 지역에 대한 설명으로 옳은 것은? [3점]

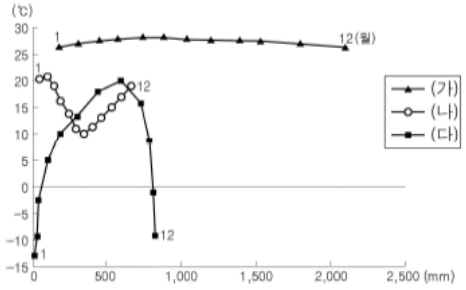

* 누적 강수량은 1월에서 해당 월까지의 강수량을 모두 더한 값임.

① (가)는 (나)보다 고위도에 위치한다.

② (나)는 (다)보다 연 강수량이 많다.

❸ (다)는 (나)보다 여름철 강수 집중률이 높다.

④ (가), (나)는 수목 기후, (다)는 무수목 기후가 나타난다.

⑤ 기온의 연교차는 (가) > (다) > (나) 순이다.

17. 그림은 두 공업 제품의 국가별 수출액 비중을 나타낸 것이다. (가), (나) 제품을 옳게 고른 것은? (순서대로 가, 나) [3점]

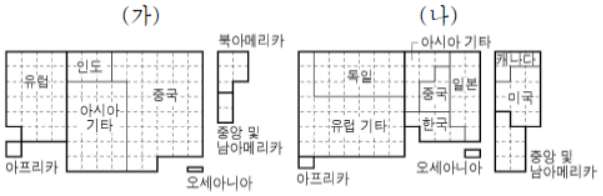

* 방안 한 칸은 1 %, 굵은 선은 대륙 경계를 의미함. (2013)

① 섬유 조선

❷ 섬유 자동차

③ 조선 섬유

④ 조선 자동차

⑤ 자동차 섬유

18. 그래프는 대륙별 인구 순 이동 변화를 시기별로 나타낸 것이다. (가) ~ (다)에 해당하는 대륙으로 옳은 것은? (순서대로 가, 나, 다) [3점]

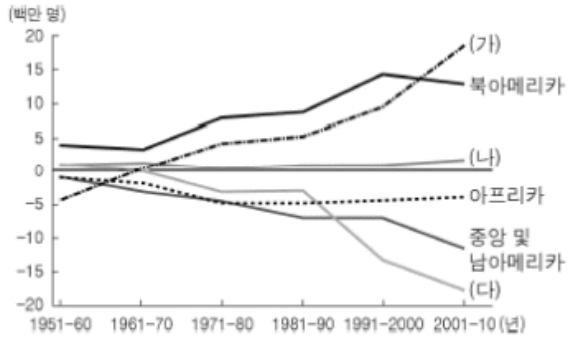

* 인구 순 이동은 유입 인구에서 유출 인구를 뺀 값임.

① 유럽, 아시아, 오세아니아

❷ 유럽, 오세아니아, 아시아

③ 아시아, 유럽, 오세아니아

④ 아시아, 오세아니아, 유럽

⑤ 오세아니아, 유럽, 아시아

19. 다음은 여행기의 일부이다. (가) ~ (다)에 해당하는 지역을 지도의 A ~ G에서 고른 것은? (순서대로 가, 나, 다)

> (가) 다양한 조류와 어류, 악어, 맹그로브 등의 야생 동식물을 직접 관찰할 수 있는 카카두 국립 공원을 비롯하여 여러 동식물 공원과 자연 보호 구역이 있었다.
> (나) 주변에 펼쳐진 모래 평원과 대조를 이루는 세계 최대 크기의 바위가 시각과 날씨에 따라 색깔이 변하면서 장관을 이루었다.
> (다) 포도를 중심으로 한 수목 농업이 활발하고 와인 생산 시설이 대규모로 발달해 있었다. 인도양 해변과 스완 강에서는 크루즈 여행을 즐길 수 있었다.

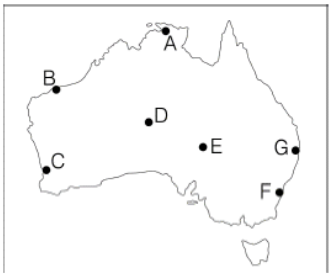

❶ A, D, C

② A, E, F

③ B, D, F

④ B, E, G

⑤ G, E, C

20. 그래프는 (가), (나) 국가의 무역 구조를 나타낸 것이다. 이에 대한 설명으로 옳지 않은 것은? [3점]

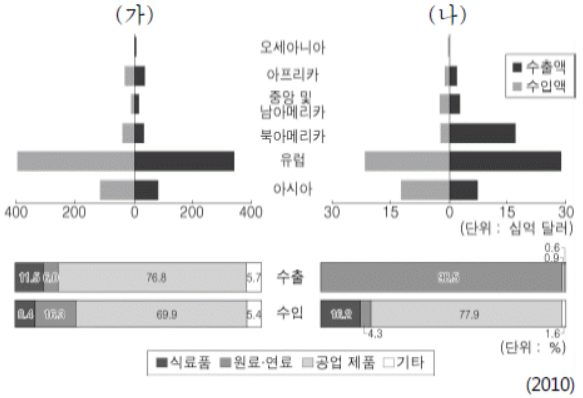

① (가)는 유럽과의 무역액이 총무역액의 50 % 이상이다.

② (나)는 원료 · 연료 중심의 수출이 이루어진다.

③ (가)는 (나)보다 아시아로의 수출액이 많다.

❹ (가)는 (나)보다 공업 제품의 수입액이 적다.

⑤ (가)는 무역 수지 적자국, (나)는 무역 수지 흑자국이다.