# 2011년02월28일년 수능(세계지리) 필기시험 기출문제 답안

| 【1과목 : 20문제】 과목 구분 없음 | 1 | 2 | 3 | 4 | 5 | 6 | 7 | 8 | 9 | 10 |
|---|---|---|---|---|---|---|---|---|---|---|
| | ⑤ | ③ | ④ | ② | ① | ① | ④ | ③ | ④ | ② |
| | 11 | 12 | 13 | 14 | 15 | 16 | 17 | 18 | 19 | 20 |
| | ② | ④ | ⑤ | ③ | ① | ① | ⑤ | ④ | ③ | ② |

전자문제집 CBT 홈페이지 : https://www.cbtestpro.kr

최신 수정 자료와 해설(오타・오답・규정변경)은 cbtestpro.kr 웹 및 앱에서 확인하세요.

기출문제의 저작권은 출제기관에 있습니다. cbtestpro.kr 및 관련 앱에서는 편집 및 재구성 작업만 하였음을 밝힙니다.

CBT 기출문제

전자문제집 CBT

빠르고 효과적으로 배워 시험 합격을 노려라!

Download on the App Store

GET IT ON Google Play

## 【1과목】 과목 구분 없음 (20문제)

*1.* 자료와 관계 깊은 지리 학습 주제로 가장 적절한 것은?




① 입지

② 분포

③ 동질 지역

④ 공간 구조

❺ 수리적 위치

*2.* 자료는 교사가 학생들에게 제시한 학습장의 일부이다. ㉠ ~ ㉢에 들어갈 내용으로 옳은 것은? (순서대로 ㉠, ㉡, ㉢) [3점]

[물음]

지도는 1월과 7월의 풍향을 나타낸 것이다. (　　)안에 들어갈 말을 쓰시오.

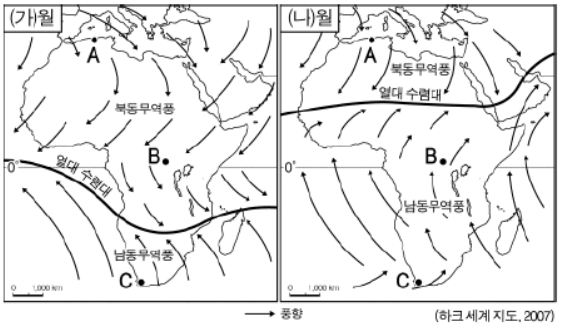


(하크 세계 지도, 2007)

- (가)월의 평균 기온은 A가 B보다 (　㉠　).
- (나)월의 낮 길이는 B가 C보다 (　㉡　).
- A의 강수량은 (가)월이 (나)월보다 (　㉢　).

① 낮다, 짧다, 적다

② 낮다, 길다, 적다

❸ 낮다, 길다, 많다

④ 높다, 짧다, 적다

⑤ 높다, 길다, 많다

*3.* 다음 글은 여행기의 일부이다. (가)에 들어갈 내용으로 가장 적절한 것은?

> 점심을 먹고 나오니 비가 내리고 있었다. 여행 안내인은 "이런 비를 스콜이라고 하는데 금방 그쳐요."라고 설명해 주었다. 버스를 타고 달리다 보니 어느덧 비가 그쳤고, 창 밖으로 _____(가)_____ 내일은 고무 농장에 가서 고무 채취 체험을 할 예정이다.

① 빽빽한 침엽수림이 눈앞에 펼쳐져 있었다.

② 넓은 초원 위에서 유목민들이 게르를 해체하고 있었다.

③ U자 모양의 계곡 너머로 만년설이 덮인 산봉우리가 보였다.

❹ 노점 상인들이 여러 종류의 쌀국수와 열대 과일을 팔고 있었다.

⑤ 털모자를 쓰고 두툼한 외투를 입은 사람들이 걸음을 재촉하고 있었다.

*4.* 그림은 화폐의 일부이다. 화폐의 그림을 통해 알 수 있는 (가), (나) 지역의 기후 특색에 대한 옳은 설명을 <보기>에서 고른 것은? [3점]

(가)

(나)

< 보 기 >

ㄱ. (가)는 건기와 우기의 구분이 뚜렷하다.
ㄴ. (나)는 1년 내내 한대 전선의 영향을 받는다.
ㄷ. (가)는 (나)보다 연 강수량이 많다.
ㄹ. (나)는 (가)보다 기온의 연교차가 작다.

① ㄱ, ㄴ

❷ ㄱ, ㄷ

③ ㄴ, ㄷ

④ ㄴ, ㄹ

⑤ ㄷ, ㄹ

5. 자료는 '중국' 단원을 정리한 내용의 일부이다. (가)에 들어갈 학습 주제로 적절한 것은?

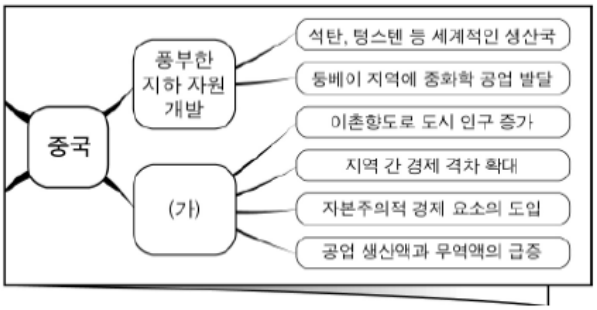


❶ 개혁 · 개방 정책

② 다양한 민족 구성

③ 서부 대개발 사업

④ 한 자녀 낳기 정책의 추진

⑤ 산업 공동화와 산업 구조 변화

Download on the App Store 전자문제집 CBT(App Store) :[다운로드]
GET IT ON Google Play 전자문제집 CBT(Google Play) :[다운로드]

6. 그래프는 (가), (나) 국가의 주요 수출 품목 비중을 나타낸 것이다. 이에 해당되는 국가를 지도에서 고른 것은? (순서대로 가, 나) [3점]

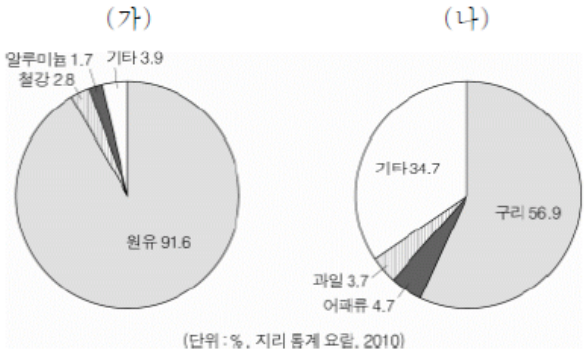

❶ A, B

② A, C

③ B, A

④ B, C

⑤ C, A

7. 자료는 '지형' 단원 수업 장면이다. 교사가 설명하는 구간을 지도의 (가) ~ (마)에서 고른 것은?




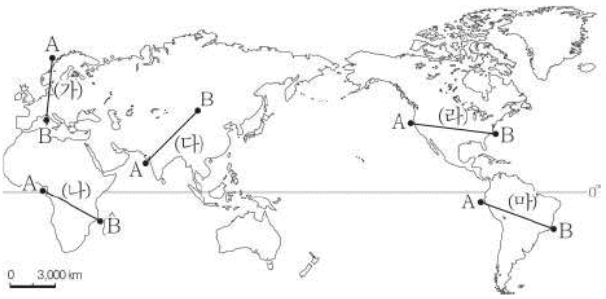


① (가)

② (나)

③ (다)

❹ (라)

⑤ (마)

8. 그림은 어떤 지형의 모식도이다. (가)에 포함될 수 있는 적절한 지형을 <보기>에서 고른 것은? [3점]

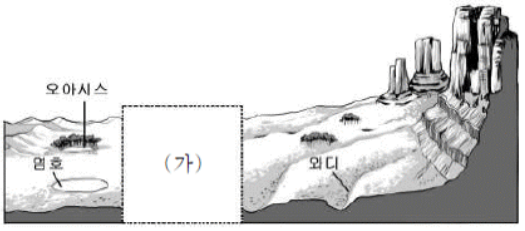


< 보 기 >

① ㄱ, ㄴ

② ㄱ, ㄷ

❸ ㄴ, ㄷ

④ ㄴ, ㄹ

⑤ ㄷ, ㄹ

*9.* 그래프는 어떤 식량 작물의 수출 · 입 현황을 나타낸 것이다. (가), (나) 작물에 대한 설명으로 옳은 것은?

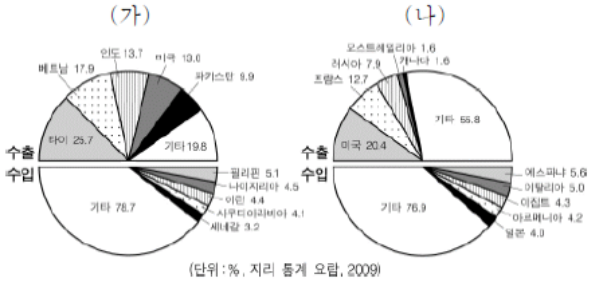


① (가)는 남아메리카가 원산지이다.

② (나)는 비옥한 충적지에서 주로 재배된다.

③ (가)는 (나)보다 기후에 대한 적응력이 크다.

❹ (나)는 (가)보다 국제 이동량이 많다.

⑤ (가), (나) 모두 북반구보다 남반구에서 많이 생산된다.

*10.* 지도는 (가), (나) 농작물의 주요 생산 지역을 나타낸 것이다. 이에 대한 설명으로 옳은 것은? [3점]

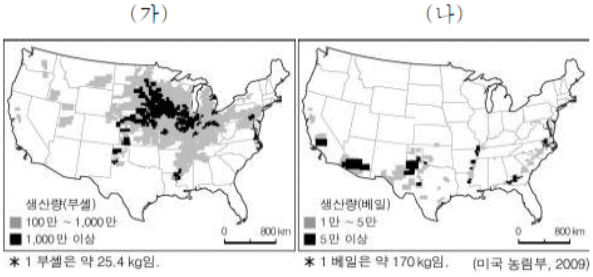


① (가)는 플랜테이션 작물이다.

❷ (가)는 대부분 가축 사료로 이용된다.

③ (나)는 내한성과 내건성이 강하다.

④ (나)는 기호 식품의 원료로 대부분 수출된다.

⑤ (나)는 상업적 혼합 농업 형태로 많이 재배된다.

*11.* 지도를 분석한 내용으로 옳은 것을 <보기>에서 고른 것은? [3점]

< 보 기 >

ㄱ. 영국과 프랑스는 무역 수지가 적자이다.
ㄴ. 포르투갈은 폴란드보다 무역 규모가 크다.
ㄷ. 네덜란드는 그리스보다 역내 수출액이 많다.
ㄹ. 스웨덴은 역내 무역 비중이 역외 무역 비중보다 작다.

① ㄱ, ㄴ

❷ ㄱ, ㄷ

③ ㄴ, ㄷ

④ ㄴ, ㄹ

⑤ ㄷ, ㄹ

*12.* 자료는 어느 종교 지도자의 새해 인사말이다. (가), (나) 종교의 신자 비율이 가장 높은 국가를 지도에서 고른 것은? (순서대로 가, 나)

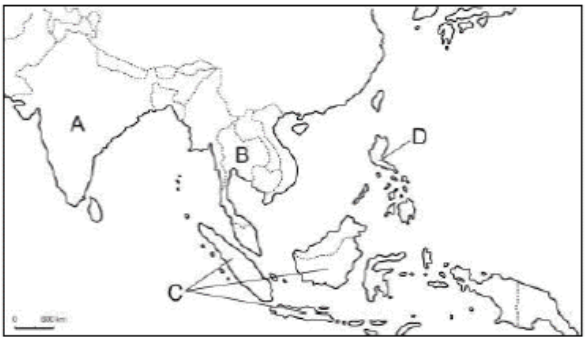


① A, C

② A, D

③ B, A

❹ B, C

⑤ C, D

*13.* 그림에서 설명하는 지역의 기후 자료로 적절한 것은? (순서대로 최난월 평균기온(°C), 기온의 연교차(°C), 연 강수량(mm)) [3점]

① (10.4), (4.0), (816.5)

② (28.0), (13.9), (26.7)

③ (17.1), (13.3), (750.6)

④ (25.2), (1.5), (1,803.7)

❺ (4.7), (31.4), (106.3)

*14.* 지도에 표시된 지역에서 발생하는 갈등의 공통적인 원인으로 옳은 것은? [3점]

① 문화적 차이

② 수산 자원의 확보

❸ 에너지 자원의 확보

④ 새로운 무역 항로의 개척

⑤ 오염 물질의 국가 간 이동

*15.* 지도는 주요 국가의 발전원별 전력 생산 비중을 나타낸 것이다. (가) ~ (다)에 해당되는 것은? (순서대로 가, 나, 다)

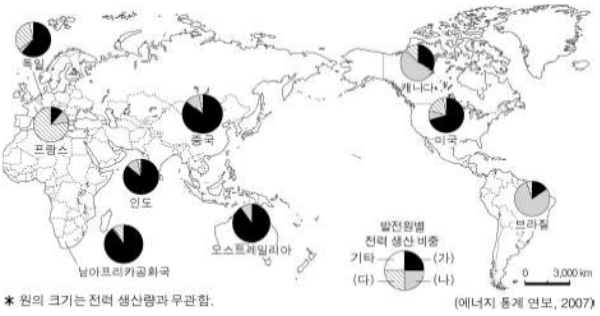


❶ 화력, 수력, 원자력

② 화력, 원자력, 수력

③ 수력, 화력, 원자력

④ 원자력, 수력, 화력

⑤ 원자력, 화력, 수력

*16.* 표는 대륙별 통계 자료이다. (가) ~ (다)에 들어갈 대륙으로 옳은 것은? (순서대로 가, 나, 다)

| 항목 / 대륙 | 면적 (만 km²) | 나라 수 | 인구(백만 명) 1950 | 2008 | 2050* | 기대 수명(2008) 남 | 여 |
|---|---|---|---|---|---|---|---|
| (가) | 3,200 | 47 | 1,402 | 4,092 | 5,266 | 67.3 | 71.2 |
| 유럽 | 2,302 | 45 | 547 | 732 | 664 | 70.6 | 78.9 |
| (나) | 3,032 | 53 | 221 | 987 | 1,998 | 51.9 | 53.9 |
| 오세아니아 | 852 | 14 | 13 | 34 | 49 | 72.8 | 78.0 |
| (다) | 1,961 | 2 | 172 | 342 | 445 | 75.9 | 81.1 |

* 2050년 인구는 추정치임. (지리 통계 요람, 2009)

❶ 아시아, 아프리카, 북아메리카

② 아시아, 북아메리카, 아프리카

③ 아프리카, 아시아, 북아메리카

④ 아프리카, 북아메리카, 아시아

⑤ 북아메리카, 아프리카, 아시아

*17.* 자료는 아프리카의 어느 국가에 관한 정보이다. ⓐ ~ ⓓ에 대한 옳은 설명을 <보기>에서 고른 것은? [3점]

4°N ~ 4°S, 34° ~ 41°E에 위치하고, ⓐ45°E가 표준 경선인 이 나라는 ⓑ마사이 족·루오 족 등 약 43개 부족으로 이루어져 있다. 또한 ⓒ관목과 긴 풀로 이루어진 초원에서 뛰어노는 야생 동물이 장관을 이루는 국립공원이 있어 '사파리의 나라'라는 명성을 가지고 있기도 하다. ⓓ이 나라를 관통하는 지구대는 오랜 기간 동안 주요 교통로 역할을 해왔다.

< 보 기 >

ㄱ. ⓐ – 세계 표준시(GMT)보다 3시간이 느리다.
ㄴ. ⓑ – 태양신을 숭배하는 잉카 문명을 발달시켰다.
ㄷ. ⓒ – 건기에는 아열대 고압대의 영향을 받는다.
ㄹ. ⓓ – 단층과 침강이 지금도 진행되고 있다.

① ㄱ, ㄴ

② ㄱ, ㄷ

③ ㄴ, ㄷ

④ ㄴ, ㄹ

❺ ㄷ, ㄹ

*18.* 그래프는 어떤 에너지 자원의 현황을 나타낸 것이다. 이 자원에 대한 설명으로 옳은 것은?

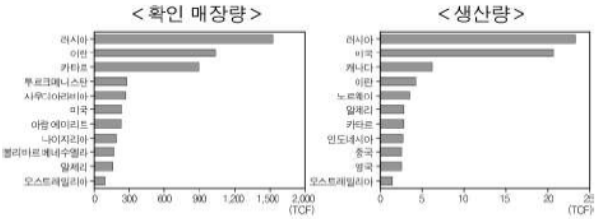


✱ 1 TCF는 원유 환산 시 1.8억 배럴임.

① 고생대 지층에 주로 매장되어 있다.

② 산업 혁명 이후 증기 기관의 연료로 사용되었다.

③ 세계 에너지 소비에서 차지하는 비중이 가장 크다.

❹ 액화 저장 기술의 개발 이후 사용량이 급증하였다.

⑤ 에너지 자원 중 대기 오염 물질을 가장 많이 배출한다.

*19.* 자료의 '○○ 지역'을 지도에서 고른 것은?

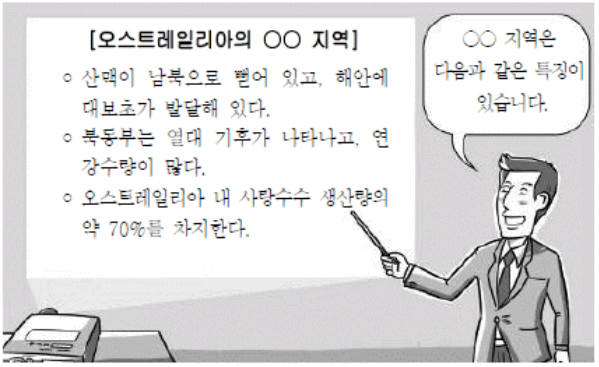


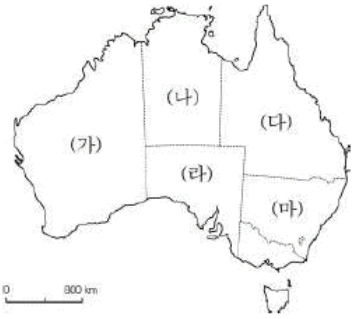


① (가)

② (나)

❸ (다)

④ (라)

⑤ (마)

*20.* 자료의 A → B → C 순서대로 여행했을 때, 그 경로로 옳은 것은? [3점]

| A | | B | | C |
|---|---|---|---|---|
| ㅇ 러시아에서 겨울이 비교적 온화한 지역이며, 휴양지로 유명함.<br>ㅇ 2014년 동계 올림픽 개최지로 선정되어 관련 시설들이 건설되고 있었음. | → | ㅇ 광활한 침엽수림 지대 인근에 있는 제지·펄프 공장을 견학함.<br>ㅇ 공업 원료를 싣고 시베리아 횡단 철도를 달리는 기차를 보았음. | → | ㅇ 유목민을 만나 전통 생활 방식에 대한 이야기를 들음.<br>ㅇ 자동차를 타고 얼어붙은 강 위를 달려 숙소로 돌아옴. |

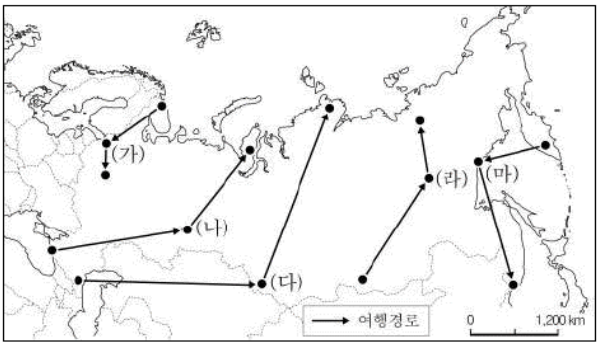


① (가)

❷ (나)

③ (다)

④ (라)

⑤ (마)