2010년09월02일년 수능(세계지리) 필기시험 기출문제 답안

【1과목 : 20문제】 과목 구분 없음	1	2	3	4	5	6	7	8	9	10
	⑤	④	④	①	②	③	⑤	④	⑤	③
	11	12	13	14	15	16	17	18	19	20
	③	②	⑤	④	②	③	①	①	②	②

전자문제집 CBT 홈페이지 : https://www.cbtestpro.kr

최신 수정 자료와 해설(오타・오답・규정변경)은 cbtestpro.kr 웹 및 앱에서 확인하세요.

기출문제의 저작권은 출제기관에 있습니다. cbtestpro.kr 및 관련 앱에서는 편집 및 재구성 작업만 하였음을 밝힙니다.

CBT 기출문제

전자문제집 CBT

빠르고 효과적으로 배워 시험 합격을 노려라!

Download on the App Store

GET IT ON Google Play

【1과목】 과목 구분 없음 (20문제)

1. 그림은 어떤 지형의 형성 과정을 나타낸 것이다. 이 지형이 발달한 곳을 지도에서 고른 것은?

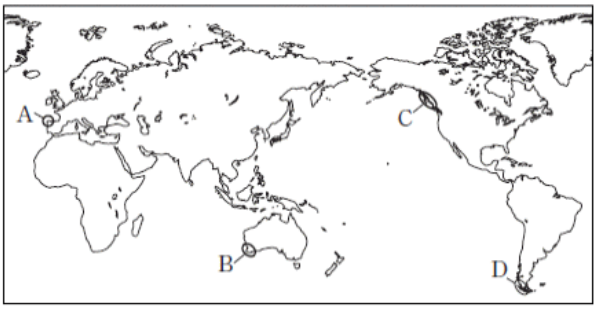

① A, B

② A, C

③ B, C

④ B, D

⑤ C, D

2. 다음은 캐나다 우표를 활용한 수업 장면이다. 조사한 내용이 옳은 학생만을 있는 대로 고른 것은? [3점]

① 갑, 을

② 갑, 정

③ 병, 정

④ 갑, 을, 병

⑤ 을, 병, 정

3. 다음 자료는 아프리카의 OPEC 회원국에 대한 보고서이다. (가), (나)에 해당하는 국가를 지도에서 고른 것은? (순서대로 가, 나) [3점]

국가	아프리카 OPEC 회원국의 국가별 특성
리비아	• 아프리카 최대 석유 매장국 • 대수로 후속 공사 재개
알제리	• 세계 6위의 천연 가스 생산국(2008년 기준) • 파이프 라인을 통해 유럽으로 천연 가스 수출
(가)	• 아프리카 제1의 원유 생산국(2008년 기준) • 아프리카 제1의 인구국(약 1억 5천만 명, 2008년 기준)
(나)	• 내전 종식 후 복구 사업이 활발함. • 아프리카 회원국 중 가장 늦게 OPEC 가입(2007년)

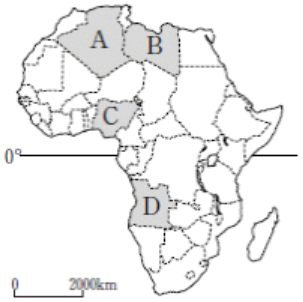

① A, B

② A, D

③ C, B

④ C, D

⑤ D, C

Download on the App Store 전자문제집 CBT(App Store) :[다운로드]
GET IT ON Google Play 전자문제집 CBT(Google Play) :[다운로드]

4. 다음 자료는 남아프리카 주요 작물의 분포 지역과 세계 주요 수출국을 나타낸 것이다. (가), (나) 작물에 대한 설명으로 옳은 것은?

(가) 작물

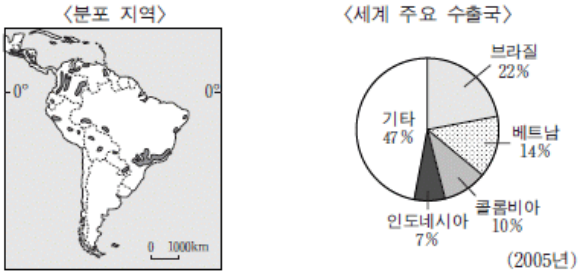

(나) 작물

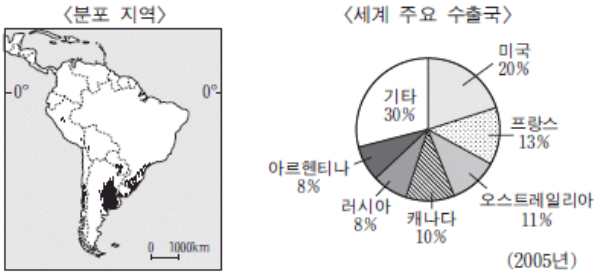

① (가)는 주로 북반구의 선진국에서 많이 소비된다.

② (가)는 기호 작물이며 초콜릿의 주요 원료로 사용된다.

③ (나)는 최근에 바이오 에너지 원료로 많이 활용되고 있다.

④ (나)는 고온 다습한 열대 기후 특성을 이용하여 재배된다.

⑤ (가), (나)는 국제 경쟁력 강화를 위해 단일 경작 비율이 높아지고 있다.

5. 다음은 영국의 기후에 대한 수업 장면이다. 발표 내용이 옳은 학생을 고른 것은?

교사 : 지도를 보고 영국의 기온 분포 특성에 대해 말해 보세요.

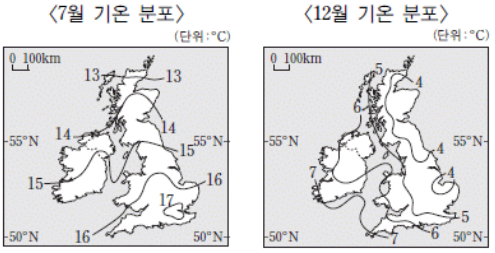

갑 : 7월의 남북 간 기온 차는 위도 차이 때문입니다.
을 : 7월 기온은 내륙이 동위도의 해안보다 낮습니다.
병 : 12월 기온의 동서 차가 나타나는 이유는 난류와 편서풍의 영향 때문입니다.
정 : 남북 간의 기온 차는 7월보다 12월이 더 크게 나타납니다.

① 갑, 을

② 갑, 병

③ 을, 병

④ 을, 정

⑤ 병, 정

6. 그래프는 유럽 연합(EU)의 무역 구조를 나타낸 것이다. 이에 대한 옳은 설명을 <보기>에서 고른 것은?

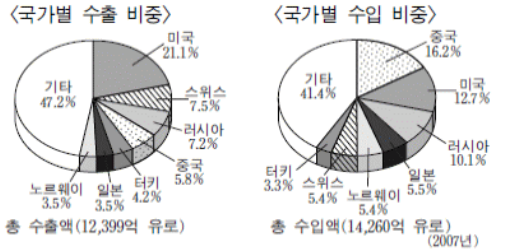

〈보 기〉

ㄱ. 총 무역 수지는 흑자이다.
ㄴ. 최대 무역 상대국은 미국이다.
ㄷ. 가장 큰 무역 적자 상대국은 중국이다.
ㄹ. 스위스와의 무역은 적자, 러시아와는 흑자이다.

① ㄱ, ㄴ
② ㄱ, ㄷ
③ ㄴ, ㄷ
④ ㄴ, ㄹ
⑤ ㄷ, ㄹ

7. 수행 평가 주제와 관련 있는 내용으로 옳지 않은 것은? [3점

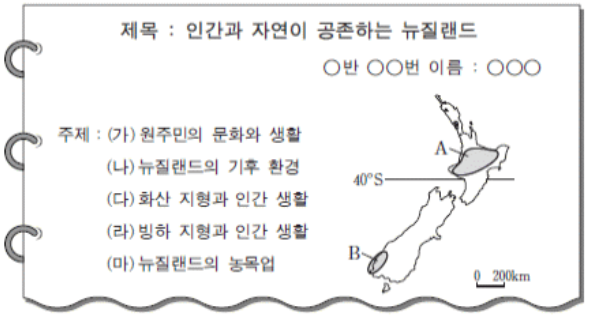

① (가) : 공식 문서에 마오리 어와 영어를 함께 사용한다.
② (나) : 여름이 서늘한 서안 해양성 기후대에 속한다.
③ (다) : 화산이 많은 A 지역에는 지열발전소가 분포한다.
④ (라) : B 지역에는 피오르와 빙하호 등의 관광자원이 있다.
⑤ (마) : 남섬은 북섬보다 낙농업이 발달되어 있다.

8. 다음 자료는 어느 소수 민족의 거주 현황을 나타낸 것이다. 이에 대한 옳은 설명을 <보기>에서 고른 것은? [3점]

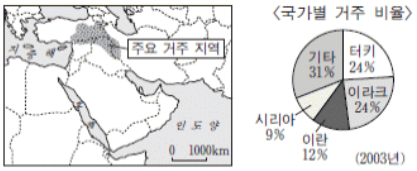

〈보 기〉

ㄱ. 독립된 국가를 이루었으나 1차 대전 후 나라를 잃었다.
ㄴ. 고유 언어를 가지고 있으며 '중동의 집시'라고 불린다.
ㄷ. 대부분 기독교를 믿고 있어 주변 국가와 분쟁이 발생하고 있다.
ㄹ. 주요 거주 지역에는 석유 자원이 매장되어 있으며, 주변 국가들이 이 민족의 독립 국가 건설에 비협조적이다.

① ㄱ, ㄴ
② ㄱ, ㄷ
③ ㄴ, ㄷ
④ ㄴ, ㄹ
⑤ ㄷ, ㄹ

9. 지도는 유럽 주요 국가들의 발전 현황을 나타낸 것이다. 이에 대한 옳은 설명을 <보기>에서 고른 것은?

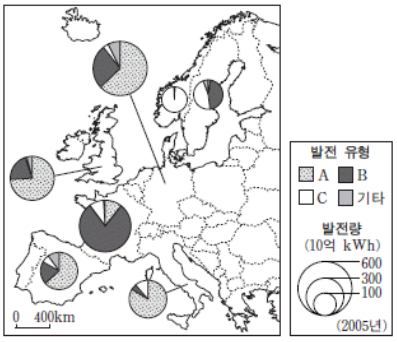

〈보 기〉

ㄱ. A의 발전량이 가장 많은 국가는 이탈리아이다.
ㄴ. B는 산성비 유발로 북부 유럽 삼림 지대에 피해를 일으켰다.
ㄷ. C는 낙차가 크고 유량이 많은 곳이 입지에 유리하다.
ㄹ. A는 B보다 발전소 입지에 자연적 조건의 영향을 적게 받는다.

① ㄱ, ㄴ
② ㄱ, ㄷ
③ ㄴ, ㄷ
④ ㄴ, ㄹ
⑤ ㄷ, ㄹ

10. 그래프는 주요 화석 에너지 자원의 지역별 생산 비율을 나타낸 것이다. A ~ C에 대한 옳은 설명을 <보기>에서 고른 것은? [3점]

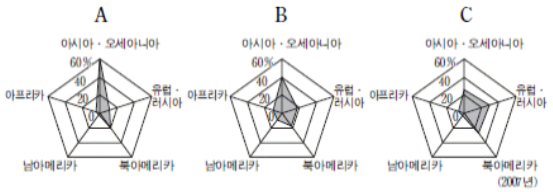

〈 보 기 〉

ㄱ. A는 서남 아시아에서 가장 많이 생산된다.
ㄴ. B는 분포의 편재가 심하여 국제적 이동이 활발하다.
ㄷ. C는 러시아가 수출량이 가장 많다.
ㄹ. A~C 중에서 가장 먼저 상용화된 자원은 C이다.

① ㄱ, ㄴ

② ㄱ, ㄷ

③ ㄴ, ㄷ

④ ㄴ, ㄹ

⑤ ㄷ, ㄹ

11. 그림은 철수의 미국 여행 일정이다. 밑줄 친 (가), (나)에 해당하는 도시를 지도에서 고른 것은? (순서대로 가, 나) [3점]

〈여행 일정〉

⊙ 첫 일정 : 삼촌과의 만남

인천 공항 출발 (1월 10일 오전 10시) —(13시간 비행)→ (가) 도시 공항 도착 (1월 10일 오전 8시)

⊙ 두 번째 일정 : 삼촌과 함께 (나) 도시 관광

(가) 도시 공항 출발 (1월 13일 오전 9시) —(3시간 비행)→ (나) 도시 공항 도착 (1월 13일 오전 11시)

*제시된 시간은 모두 현지 시각
**우리나라 표준시(GMT+9)

〈미국의 표준 시간대〉

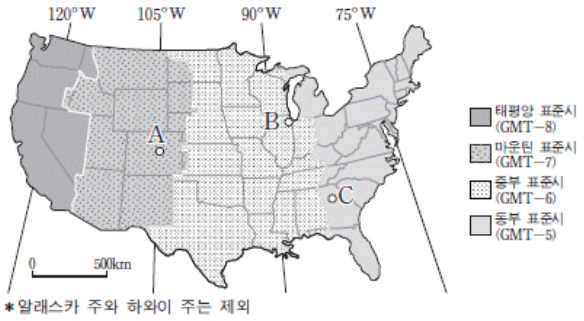

*알래스카 주와 하와이 주는 제외

① A, B

② A, C

③ B, A

④ B, C

⑤ C, B

12. 다음 글은 어느 작물에 대한 설명이다. 이작물의 중국 내 주요 생산지를 표현한 지도로 옳은 것은? [3점]

세계 인구의 약 1/3이 주식으로 하고 있는 이 작물은 고온 다습한 몬순 아시아의 충적 평야에서 잘 자란다. 최근 중국에서는 관개를 통해 강수량이 적은 곳에서도 재배를 하고 있다.

작물의 생산량 비중(%)
- 12.0 이상
- 8.0-12.0
- 4.0-8.0
- 4.0 미만

(2005년)

①
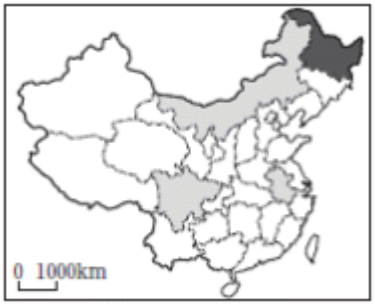

②
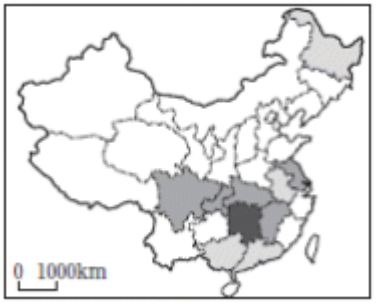

③
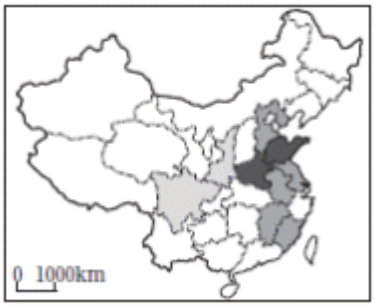

④
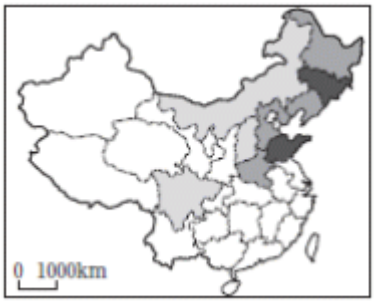

⑤
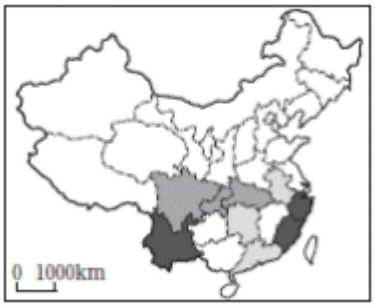

13. 그래프는 동남 아시아의 국가 연합(ASEAN) 국가 중 수출액 상위 5개국의 사회 · 경제적 특성을 나타낸 것이다. A, B 국가에 대한 설명으로 옳지 않은 것은?



① A는 교통의 요충지로 중계 무역이 발달하였다.

② A는 금융 · 운수 · 통신 등 서비스산업이 발달한 도시 국가이다.

③ B는 이슬람 교 신도수가 가장 많은 국가이다.

④ B는 세계에서 가장 많은 섬들로 이루어진 국가이다.

⑤ A, B 모두석유 자원과 관련된 난사 군도의 영유권 분쟁국들이다.

14. 다음은 영희가 세계의 환경 문제에 대하여 정리한 내용이다. (가) ~ (마)에 해당하는 내용으로 옳은 것은?

주 제	주요 발생 원인	영 향	사례 지역
지구 온난화	화석 연료의 사용 증가	(가)	몰디브
오존층 파괴	(나)	자외선 증가로 인한 피부암 발생	뉴질랜드
열대림 파괴	농경지와 임산 자원의 무분별한 개발	(다)	아마존 강 유역
사막화	(라)	토양 유실, 황무지 및 사막 확대	사헬 지대
물 부족 문제	인구 증가와 산업화로 물 사용량 증가	국가 간 물 분쟁 발생	(마)

① (가) — 황사로 인한 호흡기 질환 증가

② (나) — 이산화탄소의 과다 배출

③ (다) — 산성비에 의한 토양 산성화

④ (라) — 가축의 과잉 방목 및 농경지 확대

⑤ (마) — 미시시피 강, 양쯔 강

15. (가) ~ (다)에 해당하는 도시를 지도에서 고른 것은? (순서대로 가, 나, 다)

(가) 교통 · 금융 · 영화 산업의 중심지로 주변 도시와 연담 도시화되어 있다.
(나) 세계적인 금융 · 상업 · 경제 · 문화의 중심지이며, 유엔 본부의 소재지이다.
(다) 석유 화학 · 우주 항공 산업의 중심지이며, 천연 가스 수송망이 집중되어 있다.

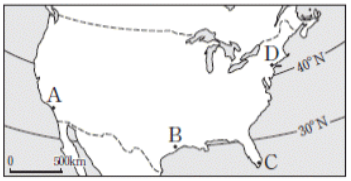

① A, C, D

② A, D, B

③ B, C, D

④ B, D, A

⑤ C, A, B

16. (가)의 조건에 모두 해당되는 국가를 (나)의 지리 정보를 이용하여 고른 것은?

조건 1 : 대다수가 동방정교를 믿고 있다.
조건 2 : 대부분 슬라브 계 민족으로 구성되어 있다.
조건 3 : 유럽 연합(EU)의 회원국이다.

(나)

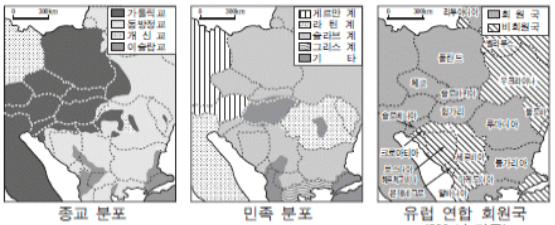

① 폴란드

② 루마니아

③ 불가리아

④ 우크라이나

⑤ 크로아티아

17. 그래프는 (가), (나) 지역의 기온과 누적 강수량을 나타낸 것이다. 이 지역에 대한 옳은 설명을 <보기>에서 고른 것은? [3점]

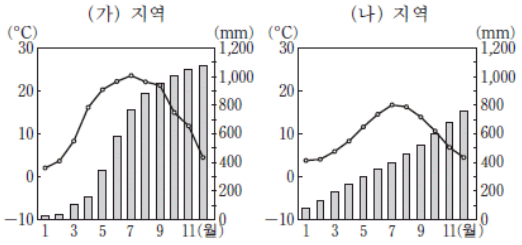

*누적 강수량 : 1월부터 해당 월까지 월별 강수량을 더한 값

〈보 기〉

ㄱ. (가)는 (나)보다 연교차가 크다.
ㄴ. (나)는 (가)보다 연중 강수 분포가 고르다.
ㄷ. (가)는 수목 농업, (나)는 혼합 농업이 발달한다.
ㄹ. (가)는 대륙 서안, (나)는 대륙 동안에 위치한다.

① ㄱ, ㄴ

② ㄱ, ㄷ

③ ㄴ, ㄷ

④ ㄴ, ㄹ

⑤ ㄷ, ㄹ

18. 지도는 러시아와 그 주위 국가들의 자연 환경을 나타낸 것이다. A ~ E 에 대한 설명으로 옳은 것은? [3점]

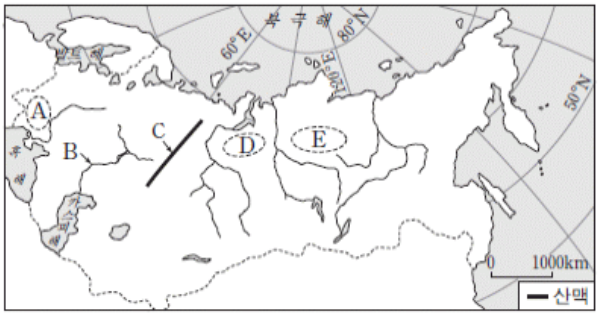

① A는 흑토 지대에 속하며 밀이 많이 생산된다.

② B는 냉대림과 툰드라의 경계선이 된다.

③ C는 신기 습곡 산지로 높고 험준하여 동서 교통의 장애가 된다.

④ D는 강수량이 적어 지하수를 이용한 관개 농업이 이루어진다.

⑤ E는 낙엽 활엽수가 주종을 이루며 갈색 삼림토가 분포한다.

19. 지도와 같이 열적도가 위치할 때 A, B 두 도시의 기후 그래프로 옳은 것은? [3점]

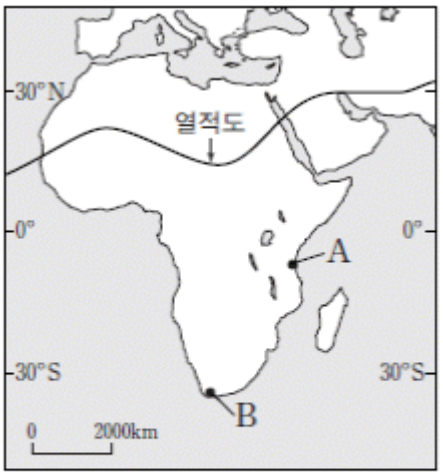

월 평균 강수량

월 평균 기온

①

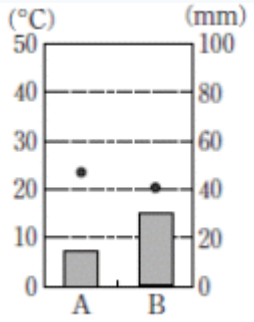

②

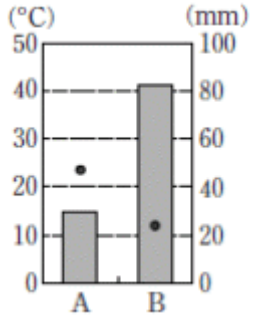

③

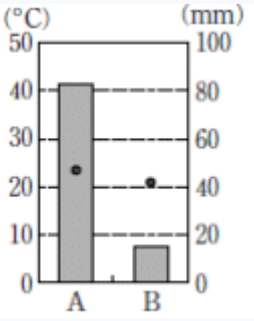

④

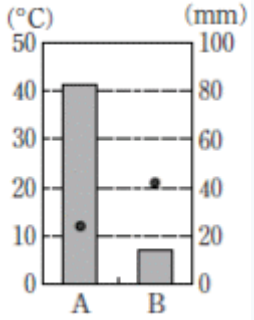

⑤ 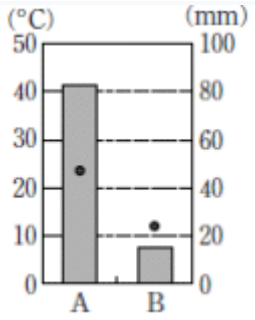

20. (가), (나)는 어느 지형의 모식도이다. 이 지형이 전형적으로 발달한 지역의 기후 그래프를 <보기>에서 고른 것은? (순서대로 가, 나)

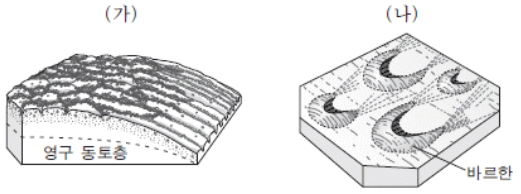

〈 보 기 〉

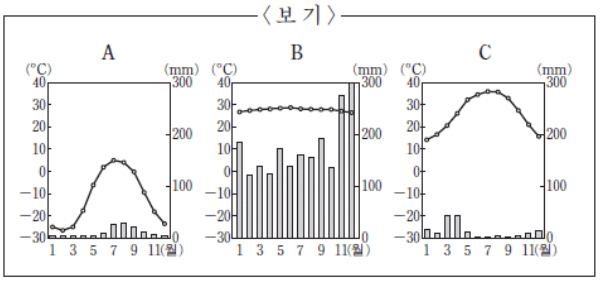

① A, B

② A, C

③ B, A

④ B, C

⑤ C, A