2009년09월03일년 수능(세계지리) 필기시험 기출문제 답안

【1과목 : 20문제】 과목 구분 없음	1	2	3	4	5	6	7	8	9	10
	②	④	①	⑤	③	④	④	③	③	⑤
	11	12	13	14	15	16	17	18	19	20
	③	⑤	④	①	④	②	②	④	⑤	①

전자문제집 CBT 홈페이지 : https://www.cbtestpro.kr

최신 수정 자료와 해설(오타・오답・규정변경)은 cbtestpro.kr 웹 및 앱에서 확인하세요.

기출문제의 저작권은 출제기관에 있습니다. cbtestpro.kr 및 관련 앱에서는 편집 및 재구성 작업만 하였음을 밝힙니다.

CBT 기출문제

전자문제집 CBT

빠르고 효과적으로 배워 시험 합격을 노려라!

Download on the App Store

GET IT ON Google Play

【1과목】 과목 구분 없음 (20문제)

1. 다음 자료는 어떤 작물의 재배지와 가공물에 대한 것이다. 이 작물과 관련된 적절한 설명을 <보기>에서 고른 것은?

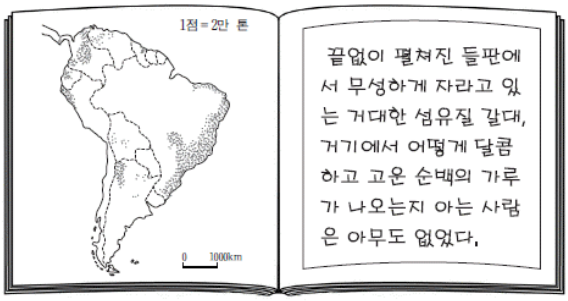

〈보 기〉

ㄱ. 바이오 에너지의 원료로 활용되고 있다.
ㄴ. 대규모 농장에서 재배되어 노동력 의존도가 낮다.
ㄷ. 자영 농민층의 형성을 저해하여 빈부 격차를 심화시켰다.
ㄹ. 국제 경쟁력을 강화하기 위해 단일 경작 비율을 점차 높이고 있다.

① ㄱ, ㄴ
② ㄱ, ㄷ
③ ㄴ, ㄷ
④ ㄴ, ㄹ
⑤ ㄷ, ㄹ

2. 다음은 TV 드라마를 보면서 나눈 대화이다. (가), (나)에 해당하는 도시를 지도에서 고른 것은? (순서대로 가, 나)

① A, B
② A, C
③ B, C
④ B, D
⑤ C, D

3. 다음 글은 지역 정보를 수집하여 정리하는 방법에 관한 것이다. (가) ~ (다) 기준에 적절한 자료를 <보기>에서 고른 것은? (순서대로 가, 나, 다)

수집된 지역 정보는 주제도를 작성하여 정리·분석할 수 있다. 주제도의 범례로 표현되는 기준은 자료의 특성에 따라 여러 가지로 구분된다. (가)첫째, 정보를 질적 특성에 따라 정리하는 기준, (나)둘째, 정보를 양적인 크기의 순서에 따라 정리하는 기준, (다)셋째, 정보간의 간격을 비교할 수 있도록 정리하는 기준 등이 있다.

〈보 기〉

A : 동남 아시아의 종교 자료
B : 인구 수에 따른 미국의 10대 도시 순위 자료
C : 유라시아 대륙 동안과 서안의 1월 평균 기온 자료

① A, B, C
② A, C, B
③ B, A, C
④ B, C, A
⑤ C, B, A

4. 다음 자료를 바탕으로 (가) 공업을 추론할 때, 가장 적절한 것은?

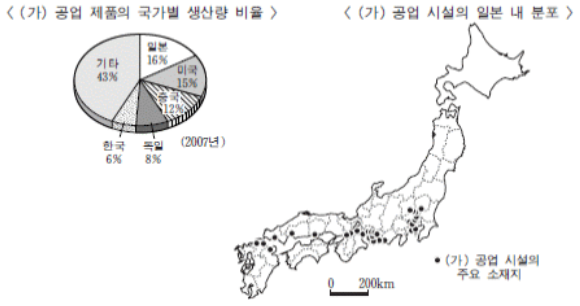

① 조선
② 철강
③ 섬유
④ 반도체
⑤ 자동차

Download on the App Store 전자문제집 CBT(App Store) :[다운로드]
GET IT ON Google Play 전자문제집 CBT(Google Play) :[다운로드]

5. 다음은 어느 두 지역의 주민 인터뷰 기사이다. (가), (나) 지역에 대한 옳은 설명을 <보기>에서 고른 것은? [3점]

○○○ 기자의 현장 취재

(가) 지역의 □□□ 씨: "이 곳은 양쯔 강 삼각주 근처로 여름 기온이 높고 비가 많이 내려 벼를 재배하고 있어. 가을 날씨는 맑고 쾌청한 경우가 많아 벼의 결실에 유리해. 추수한 곡식은 식량으로 사용하고 있지."

(나) 지역의 △△△ 씨: "이 곳은 런던 부근으로 온난하고 연중 비가 고르게 내려 부드러운 풀이 잘 자라. 이 풀과 사료 작물을 재배해서 젖소에게 먹여. 우유를 가공해서 버터, 치즈 등의 유제품을 생산해."

〈보 기〉

ㄱ. (가)는 (나)보다 연 강수량이 적다.
ㄴ. (가)는 (나)보다 기온의 연교차가 크다.
ㄷ. (가)는 (나)보다 계절풍의 영향이 크다.
ㄹ. (가), (나) 모두 대규모 기업적 영농이 활발하다.

① ㄱ, ㄴ
② ㄱ, ㄷ
③ ㄴ, ㄷ
④ ㄴ, ㄹ
⑤ ㄷ, ㄹ

6. 자료에서 설명하는 A지형이 잘 나타나는 해안 지역으로 옳지 않은 것은?

리아(ria) 해안은 해수면 상승 또는 지반 침강으로 하곡이 바닷물에 잠기게 된 침수 해안이다. 이러한 해안에 유입되는 하천의 하구에는 삼각강이 형성되는 경우가 많다. 리아 해안과 (A) 해안은 바다에 침수된 계곡이라는 점에서 유사하다. 하지만, (A) 해안은 빙하에 의해 형성된 계곡이 침수되었다는 점에서 리아 해안과 다르다.

① 가
② 나
③ 다
④ 라
⑤ 마

7. (가), (나) 지도에 나타난 인구 유출의 주요 요인으로 옳은 것은? [3점]

(가)

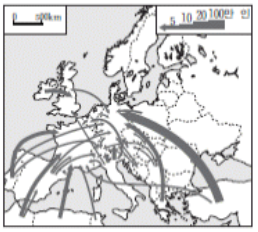

(나)

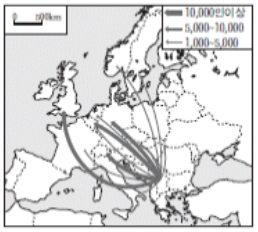

① (가) : 급격한 산업화로 인한 환경오염
② (가) : EU 가입에 따른 노동력의 자유로운 이동
③ (나) : 국제 결혼을 목적으로 한 이민 증가
④ (나) : 다양한 민족 및 종교 분포로 인한 분쟁
⑤ (나) : 뜨거운 여름 날씨로 인한 해외 관광 수요 증가

8. 표에 제시된 A ~ C 강 하구 지역의 기후 그래프를 <보기>에서 고른 것은? (순서대로 A, B C) [3점]

강	A	B	C
유출 해양	대서양	지중해	멕시코만
길이(km)	6,516	6,695	6,019
유역 면적(천km²)	7,050	3,349	3,250

(세계의 통계, 2008)

〈보 기〉

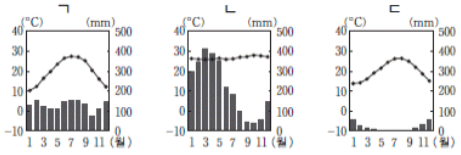

① ㄱ, ㄷ, ㄴ
② ㄴ, ㄱ, ㄷ
③ ㄴ, ㄷ, ㄱ
④ ㄷ, ㄱ, ㄴ
⑤ ㄷ, ㄴ, ㄱ

9. 사진은 영희가 아시아 어느 나라의 주요 도시들을 여행하면서 촬영한 것이다. 이 나라에 대한 설명으로 가장 적절한 것은?

① 정책적으로 양과 소의 사육을 금지하고 있다.

② 수출품의 대부분은 기업적으로 생산된 주곡 작물이다.

③ 유일신을 믿으며 교리를 바탕으로 생활하는 사람들이 많다.

④ 주변 국가들과 단일 화폐를 사용하는 경제 공동체를 구성하고 있다.

⑤ 일조량이 많아 과일 재배가 활발하며, 생산된 과일은 대부분 주류 제조에 활용된다.

10. 지도는 라틴아메리카의 국가별 인종 구성을 나타낸 것이다. (가) ~ (라)에 대한 옳은 설명을 <보기>에서 고른 것은? [3점]

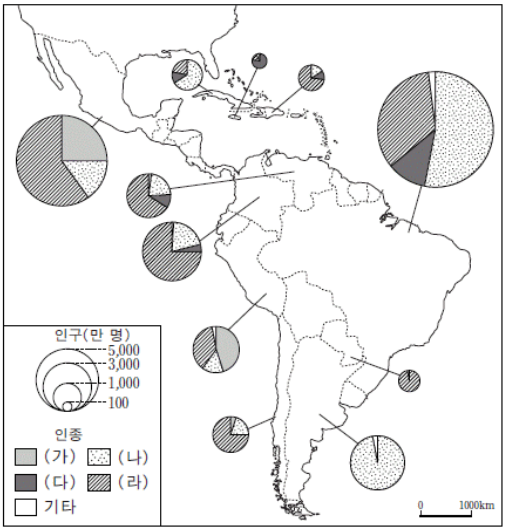

〈보 기〉

ㄱ. (가)는 대하천의 평야 지역을 중심으로 이 지역의 고대 문명을 발달시켰다.
ㄴ. (나)는 동일한 언어를 사용하고, 가톨릭교를 믿고 있다.
ㄷ. (다)는 광산 개발과 열대 작물 재배에 필요한 노동력 확보를 위해 아프리카에서 강제 이주되었다.
ㄹ. (라)에는 메스티소, 물라토, 삼보가 있다.

① ㄱ, ㄴ

② ㄱ, ㄷ

③ ㄴ, ㄷ

④ ㄴ, ㄹ

⑤ ㄷ, ㄹ

11. 자료의 A, B에 대한 옳은 설명을 <보기>에서 고른 것은?

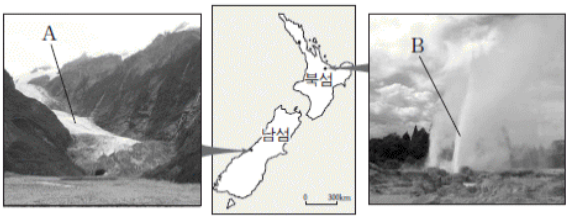

〈보 기〉

ㄱ. A의 작용으로 칼데라가 형성된다.
ㄴ. A는 최근 지구 온난화로 규모가 축소되고 있다.
ㄷ. B는 지하수가 지열에 의해 데워져 간헐적으로 분출된다.
ㄹ. A와 B는 주로 관개 농업에 이용된다.

① ㄱ, ㄴ

② ㄱ, ㄷ

③ ㄴ, ㄷ

④ ㄴ, ㄹ

⑤ ㄷ, ㄹ

12. 다음 글에서 설명하는 나라를 지도에서 고른 것은?

이 나라는 세계에서 네 번째로 인구(약 2억 3천만 명, 2006년 현재)가 많으며 전 인구의 86% 정도가 이슬람교를 믿고 있다. 원유의 매장량 고갈과 유전 노후화로 인해 2009년부터 OPEC 회원 자격을 포기할 만큼 원유 생산량이 줄어들고 있다. 이로 인해 전력난 극복을 위한 발전소 증설 계획에서도 석유보다는 석탄, 천연가스, 지열 등의 활용에 중점을 두고 있다.

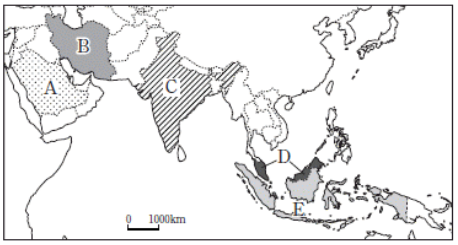

① A

② B

③ C

④ D

⑤ E

13. 철수는 세계표준시(GMT)와 시간차가 적게 나는 지역부터 많이 나는 지역의 순으로 여행을 하였다. (가) ~ (다)를 여행 순서대로 바르게 나열한 것은?

여행지	철수의 여행기
(가)	이곳은 미국의 50개 주 중에서 면적이 가장 넓으며, 1867년에 러시아로부터 720만 달러를 주고 구입한 지역이다. 당시에는 빙하로 덮인 쓸모없는 불모지를 샀다고 많은 비판을 받았다.
(나)	여기는 오랫동안 흩어져 있던 유대인이 제2차 세계대전 이후 팔레스타인 지역에 건설한 나라이다. 민족적·종교적 갈등으로 인해 주변 국가들과 끊임없는 분쟁을 겪고 있다.
(다)	에콰도르의 수도인 이곳은 안데스 산지에 위치하며 해발고도가 2,800m 이상이다. 적도 부근에 위치하면서도 연평균 기온이 12~13℃에 지나지 않는데, 이는 우리나라의 봄 날씨와 비슷한 정도이다.

① (가) → (나) → (다)

② (가) → (다) → (나)

③ (나) → (가) → (다)

④ (나) → (다) → (가)

⑤ (다) → (나) → (가)

14. 지도에 표시된 (가) ~ (다) 도시의 기후 특성을 바르게 연결한 것은? (순서대로 가, 나, 다) [3점]

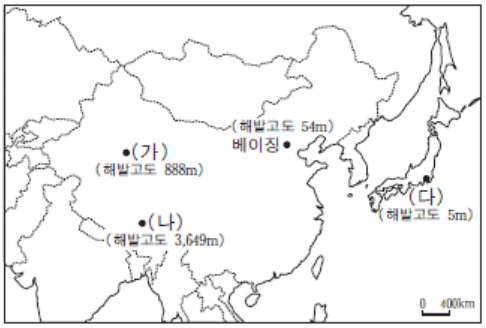

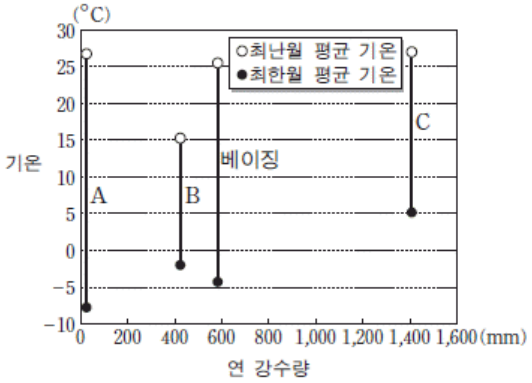

① A, B, C

② B, A, C

③ B, C, A

④ C, A, B

⑤ C, B, A

15. 다음은 중국에 관한 수업 장면이다. 교사가 제시한 자료를 보고 적절한 내용을 발표한 학생만을 있는 대로 고른 것은?

○ ○ 신 문 — 2007년 ○월 ○일

(단위: 만 명)

구분 \ 센서스 연도		1990	2000
도농별	도시	29,971	45,844
	농촌	83,397	80,739
연령별	0-14세	31,392	28,979
	15-64세	75,662	88,793
	65세 이상	6,314	8,811

중국은 합계출산율이 1.8명(2000년 현재)으로 낮아져서 저출산 국가에 속하게 되었다. 일반적으로 한 가족이 친가·외가의 조부모 4명과 부모 2명, 아이 1명으로 구성되어 가족들의 모든 관심과 애정이 아이에게만 집중되는 경향이 나타난다. 따라서 아이가 응석꾸러기로 자라는 것이 사회적 문제가 되기도 한다.

교사 : 자료를 보고 중국의 인구에 대해 발표해 봅시다.
갑 : 중국 정부는 출산 억제 정책을 실시했을 것 같아요.
을 : 1990년에서 2000년까지 인구가 증가했을 것 같아요.
병 : 농촌에서 도시로 많은 사람들이 이동했을 것 같아요.
정 : 1990년에서 2000년까지 경제 활동 인구가 감소했을 것 같아요.

① 갑, 을

② 갑, 정

③ 병, 정

④ 갑, 을, 병

⑤ 을, 병, 정

16. 두 지도를 함께 고려하여 북 · 동부 유럽에 대한 탐구 학습 주제를 선정 할 때, 적절한 것을 <보기>에서 고른 것은?

〈유럽의 주요 공업지역〉

〈유럽의 1월과 7월 풍향〉

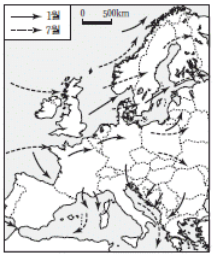

〈보 기〉

ㄱ. 호수의 산성화
ㄴ. 토양의 염류화
ㄷ. 삼림의 황폐화
ㄹ. 적조 발생 빈도 증가

① ㄱ, ㄴ

② ㄱ, ㄷ

③ ㄴ, ㄷ

④ ㄴ, ㄹ

⑤ ㄷ, ㄹ

17. 다음은 어떤 자원에 대한 자료이다. 이 자원에 대한 설명으로 옳은 것은? [3점]

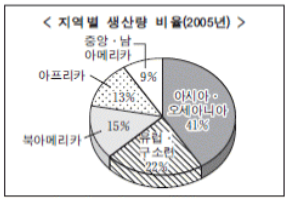

편재가 심한 이 자원은 주로 선박을 이용해서 여러 지역으로 수송되기 때문에 해상에서 테러나 해적 행위의 표적이 될 가능성이 높다. 국제 해상 수송로에서 테러나 해적 행위가 발생할 경우 이 자원의 국제 가격에 영향을 미치기도 한다.

① 자동차 및 철강 산업의 주요 원료로 사용된다.

② 세계 에너지 소비에서 차지하는 비중이 가장 높다.

③ 산업 혁명을 주도한 자원으로 개발의 역사가 길다.

④ 냉동 액화 기술의 발달로 해상 수송이 가능해졌다.

⑤ 산업의 쌀로 불리며 주로 안정 지괴에 매장되어 있다.

18. 지도의 A ~ E 지역에 대한 설명으로 옳지 않은 것은? [3점]

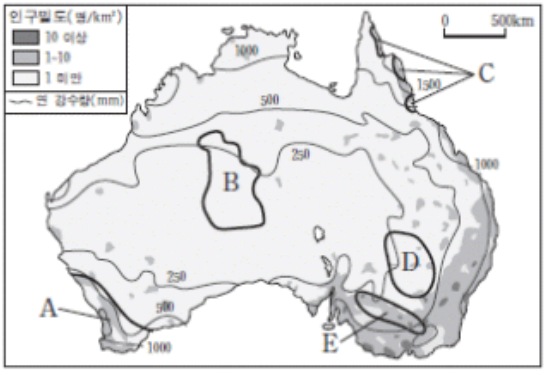

① A : 포도와 오렌지가 재배되고 있다.

② B : 원주민 보호구역으로 지정되어 있다.

③ C : 농경지가 확대되면서 산림이 파괴되고 있다.

④ D : 주로 소의 방목지로 이용되고 있다.

⑤ E : 지나친 관개와 목축으로 사막화가 진행되고 있다.

19. 다음 글은 A 지역에 대한 설명이다. A 지역에서 나타나는 자연 현상으로 옳은 것을 <보기>에서 고른 것은? [3점]

1981년에 세계자연유산으로 등록된 이곳은 마사이어로 '끝없는 평원'이라는 뜻의 화산 고원 지대이다. 이곳에 서식하는 누, 얼룩말, 영양들은 우기에 옹고롱고로 분화구에 모여 번식을 한다. 그러나 건기가 시작되면 이 동물들은 먹이를 찾아 드넓은 평원을 가로질러 하천이 있는 곳으로 이동한다.

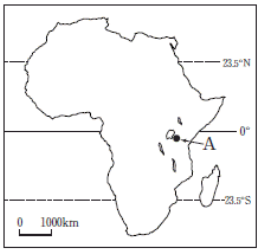

〈보 기〉

ㄱ. 연교차가 일교차보다 더 크다.
ㄴ. 6월과 12월에 태양 고도가 가장 높다.
ㄷ. 1월에는 무역풍이 우세하게 나타난다.
ㄹ. 7월에는 열대 수렴대가 이 지역의 북쪽에 위치한다.

① ㄱ, ㄴ

② ㄱ, ㄷ

③ ㄴ, ㄷ

④ ㄴ, ㄹ

⑤ ㄷ, ㄹ

20. 지도의 A ~ D 지역에 관한 내용을 <보기>에서 고른 것은? (순서대로 A, B, C, D)

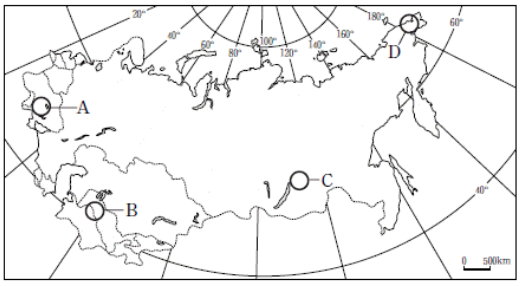

〈보 기〉

ㄱ. 비옥한 체르노젬이 분포하는 세계적인 곡창 지대이다.
ㄴ. 소수 민족이 순록 유목과 수렵 등으로 생활하고 있다.
ㄷ. 아랄해로 유입되는 하천수를 이용해 면화를 재배하고 있다.
ㄹ. 자원 개발을 위해 건설된 바이칼-아무르 철도가 통과하는 지역이다.

① ㄱ, ㄷ, ㄹ, ㄴ

② ㄱ, ㄹ, ㄷ, ㄴ

③ ㄴ, ㄷ, ㄹ, ㄱ

④ ㄷ, ㄴ, ㄱ, ㄹ

⑤ ㄷ, ㄹ, ㄴ, ㄱ